மாகாணக் கல்வித் திணைக்களம்
வடக்கு மாகாணம்
Provincial Department of Education, Northern Province

மூன்றாம் தவணைப் பரீட்சை – 2022 – (2023)

தரம் - 06	தமிழ்மொழியும் இலக்கியமும் – I,II	நேரம்: 2.00 மணித்தியாலங்கள்

பெயர் / சுட்டெண் .....

பகுதி-I

01. பொருத்தமான விடையின் கீழ்க் கோடிடுக.

01) "எமதுயிருடன் ஏழ் மகிதலம் முழுவதையும் உறுக" இதில் மகிதலம் என்பதன் பொருள்,
1) ஆகாயம் 2) மைதானம் 3) மகிமை 4) பூமி

02) "புகழ்ச்சியை விரும்பிய மழவராயன்" புகழ்ச்சி என்பதன் எதிர்ப்பதம்,
1) மகிழ்ச்சி 2) முயற்சி 3) இகழ்ச்சி 4) சூழ்ச்சி

03) "மயில்போல் வேடமணிந்து நிற்கிறார்கள்" மயிலின் ஆண்பாற் சொல்,
1) அழகு 2) அளகு 3) போத்து 4) பேடு

04) கொப்பு, கூட்டம், சுற்றம், மூங்கில், என்னும் பல பொருள் தரும் ஒரு சொல்,
1) கிளை 2) வளை 3) உறவு 4) வரை

05) எனது மாமா எனக்கொரு லப்ரொப் (Laptop) வாங்கித் தந்துள்ளார். லப்ரொப் என்பதன் தமிழ்க் கலைச் சொல் வடிவம்,
1) மடிக்கணினி 2) சூட்டிகை 3) இணையம் 4) தொலைபேசி

06) குறிஞ்சி, முல்லை, மருதம், நெய்தல் என்பன,
1) நானிலம் 2) நால்வேதம் 3) நாற்பாதம் 5) நாற்கவி

07) இலங்கை தனது எழுபத்தைந்தாவது சுதந்திரதின விழாவைக் கொண்டாடியது. எழுபத்தைந்தாவது ஆண்டின் நிறைவிற் கொண்டாடப்படுவது,
1) வைரவிழா 2) பவளவிழா 3) அமுதவிழா 4) பொன்விழா

08) எதிர்ப்பொருள் கொண்டமைந்த இணைமொழி,
1) கண்ணும் கருத்தும் 2) பேரும் புகழும் 3) வாடிவதங்கி 4) அல்லும்பகலும்

09) பின்வருவனவற்றுள் உவமைத்தொடராக அமையாதது,
1) ஆலகாலவிடம்போல 2) வளர்பிறை போல
3) ஒல்காப் பெரும்புகழ் 5) கன்றுகளை நோக்கிவரும் பசுக்கள் போல

10) பின்வருவனவற்றுள் பழமொழியாக அமையாதது.
1) வெளிப்பகட்டைக் கண்டு ஏமாறாதே 2) சுவர் இருந்தால் தான் சித்திரம் வரையலாம்
3) மூத்தோர்சொல் வார்த்தை அமிர்தம் 4) பேராசை பெரும் நட்டம்

11) பின்வருவனவற்றுள் இடையின ஓசை மட்டும் கொண்டமைந்த சொற்கள் இடம் பெறும் தொகுதி,
1) வரகு,முயல்,உழவர்,வைகை 2) வரம், வாசனை, வெற்றி,யாழ்ப்பாணம்
3) வயல்,வாழ்வு,வெள்ளை,வெளவால் 4) விடுதலை,வெள்ளம்,வேலழகன்,தேவாரம்

www.lkedu.lk

12) தமிழ் நெடுங்கணக்கிலுள்ள குறுகிய ஓசை கொண்ட எழுத்துக்களின் எண்ணிக்கை,
1) 247 2) 95 3) 30 4) 12

13) நாம் தைப்பொங்கல் விழாவைக் கொண்டாடினோம். பொங்கல் என்பது,
1) பொருட்பெயர் 2) காலப்பெயர் 3) இடப்பெயர் 4) தொழிற்பெயர்

14) பின்வருவனவற்றுள் இறந்தகால வினைமுற்றுக் கொண்டமைந்த வாக்கியம்
1) அமைதியாக நின்றான் அவன் 2) நாம் பரீட்சை எழுதுகிறோம்.
3) தினமும் இறைவனை வணங்குவோம் 4) நாளை விழா நடைபெறும்.

15) உயர்திணை, பலர்பால், படர்க்கைப் பெயராக அமையுந்தொடர்,
1) ஆங்கில இளைஞன் ஒருவன் 2) அந்த வீட்டின் நிலவறை
3) அவர்கள் பச்சைப் பாலகர்கள் 4) மிகமிக அற்பமான சாதனைகள்

16) பறவைகள் பறந்து செல்ல பள்ளம் மேடு வானில் இல்லை. இவ்வாக்கியத்தின் எழுவாய்
1) பறந்து 2) பள்ளம் மேடு 3) பறவைகள் 4) வானில்

17) நியூற்றன் தற்பெருமை இல்லாதவர். தற்பெருமை என்பதைப் பிரித்தால்,
1) தன் + பெரிது 2) தனது + பெருமை 3) தற் + பெருமை 4) தன் + பெருமை

18) பாரதியாரால் "தம்பி" என அழைக்கப்பட்டவர்
1) பரலி.சு.நெல்லையப்பர் 2) பா. சிவபாலன் 3) சோதி 4) அறிவழகன்

19) பெருங்குடி வணிகர் மாநாய்கன் புதல்வி
1) பாண்டிமாதேவி 2) கண்ணகி 3) கௌசலை 4) கைகேயி

20) சர்வதேச தாய்மொழித்தினம் கொண்டாடப்படும் தினம்
1) வைகாசி 01 2) மாசி 14 3) ஐப்பசி 01 4) மாசி 21

(20 x 2 = 40 புள்ளிகள்)

www.lkedu.lk

பகுதி -II

- **எல்லா வினாக்களுக்கும் விடை தருக.**

01) பின்வருவனவற்றில் ஒன்றைத் தெரிந்து 150 சொற்களுக்குக் குறையாமல் கட்டுரை எழுதுக.
அ) செய்தித்தாளின் பயன்கள்
ஆ) நவாலியூர் சோமசுந்தரப்புலவர்
இ) கல்வியின் சிறப்புக்கள்
ஈ) என் மனங்கவர்ந்த இயற்கைக்காட்சி
உ) ஒழுக்கம் உயர்வு தரும் (பேச்சு)

(20 புள்ளிகள்)

02) உமது பாடசாலைத் தோட்டம் பற்றி உமது நண்பனுக்கு 75 சொற்களில் கடிதம் எழுதுக.
(10 புள்ளிகள்)

03) பின்வரும் வினாக்களுக்கு விடை தருக.
1) "இலங்கை வளம்" பாடியவர் யார்?
2) குறும்பா எத்தனை அடிகளைக் கொண்டது?
3) செல்வந்தனது பேராசையை அழித்தவன் யார்?
4) மழவராயன் கற்றுக்கொண்ட இலக்கியங்கள் இரண்டு தருக?
5) "தன்மானமிருந்தால் எங்களை விட்டுவிட்டு நீங்கள் வாழுங்கள்" யாரால் யாருக்குக் கூறப்பட்டது?
6) ஒருவன் எவற்றால் மேன்மையடைய முடியாது?
7) பறவைகள் மகிழ்வுடன் பாடித்திரியக் காரணங்கள் நான்கு தருக?
8) மரங்களால் கிடைக்கும் பயன்கள் நான்கு தருக?
9) வள்ளுவர் எப்படிப்பட்டவர்களுக்குக் கடைத்தேற வழியில்லை என்கிறார்?
10) இராமன், காட்டில் நடந்த பரீட்சையில் எவ்வாறு வெற்றி பெற்றான்?

(20 புள்ளிகள்)

04) பின்வருவனவற்றை வைத்துக் கருத்துள்ள வாக்கியம் எழுதுக.
அ) மின்னி மின்னி
ஆ) நடுநடுங்கி
இ) நாற்று
ஈ) அங்குமிங்கும்
உ) தலைமழை

(05 புள்ளிகள்)

05) பின்வருவனவற்றில் உள்ள வழுக்களை (எழுத்துப்பிழைகளை) இனங்கண்டு மீண்டும் சரியாக எழுதுக.
சிண்ணச் சிண்ண மலைத்துலிகள் சேர்த்து வைப்பேனே
மிண்ணல் ஒழியில் நூளெடுத்து கோர்த்து வைப்பேனே

(05 புள்ளிகள்)

www.lkedu.lk

Provincial Department of Education
Northern Province
மாகாணக் கல்வித் திணைக்களம் வடக்கு மாகாணம்

Third Term Exam – 2022- (2023)

Grade : 6	English Language-I,II	Time:- Two Hours

Name / Index No : ……

Part - I

Test– 01

Underline the word with correct spelling. One is done for you.

01. hoby , <u>hobby</u> , hopy

02. bicicle , bycycle , bicycle

03. tre , tree , trie

04. Captan , Captain , capton

05. School , Schol , Schooll

06. Spech , Speech ,Speach

[5 X 1 = 5 Marks]

Test-02

Underline the correct answer. One is done for you.

01. I (<u>am</u>, is, are) a student.

02. She (are, is, am) a teacher.

03. They (is, are, am) good friends.

04. We (am, is, are) good students.

05. He (am, is. are) an engineer.

06. Mala and I (is, am, are) scouts.

[5 X 1 = 5 Marks]

www.lkedu.lk

Test-03

Complete the table by selecting the similar sound words given in the bracket.

[wing , dish , sing , sick , kick , hip , leak , wish , weak , tip]

Fish	Pick	Beak	Dip	Ring

Test– 04 [10 X 1 = 10 Marks]

Re – arrange the jumbled words and make meaningful sentences. One is done for you.

01. friends / football /are / My / playing

My friends are playing football

02. games / captain / You / are / the

……

03. The park / not / is / clean / very.

……

04. ambition / a / is / His / doctor / to / be

……

05. girls? / where / are / the

……

06. girl / I / a / am

……..

Test - 05 [5 X 1 = 05 Marks]

Read the poem and select the correct answer.

Mule's Thoughts

A silly little mule
sat on a milking stool
And tried to write a letter to
But he couldn't find the ink
So, he said: "I rather think
This writing letters home is too much bore"

By – F.Jackson

01. What's the title of the poem?

01. Mule's thoughts 02. Mule 03. Mule's Father

02. Who is the writer of the poem?

01. F.Jack 02. R.Jackson 03. F.Jackson

www.lkedu.lk

03. Where did the mule sit?

01. In a chair 02. On a stool 03. In a table

04. What couldn't he find?

01. letter 02. ink 03. a pen

05. What did he feel about writing letters home?

01. happy 02. sad 03. bore

[5 X 1 = 05 Marks]

Test– 06

Fill in the following blanksusing your own information.

01. Full name :- ……..

02. Age :- ……

03. School :- ……

04. Class :- ……..

05. Hobby :- ……

06. Village/ Town :- ……

07. Favourite Subject(s) :-……

08. Favourite food(s) :- ……..

09. Favorite colour(s) :-……..

10. Ambition :- ……

(10 X 1 = 10 Marks)

Test - 07

Underline the correct verb. One is done for you

1. I (get up, gets up) early in the morning.
2. we (worships / worship) God.
3. Nimali (studies / study) in the morning.
4. You (recites / recite) the poem nicely
5. My friends (help/helps) me
6. They (washes/ wash) their hands

(5x2=10 Marks)

www.lkedu.lk

Test - 08

Write the plural forms of the given nouns. One is done for you

1. Boy - Boys
2. Woman -
3. Book-
4. Tooth--
5. Chief -
6. Child-
7. Watch-
8. City-
9. Diary-
10. Knife-
11. Glass-

(10x1=10 Marks)

Test - 09

Find the names of the animal babies. One is done for you.

1. Cat - kitten
2. Cow-
3. Elephant-
4. Horse-
5. Duck-
6. Lion-
7. Deer-
8. Goat-
9. Pig-
10. Dog-
11. Goose-

(10x1=10 Marks)

Test - 10

Write an essay on one of the following topics

1. My Friend
2. Myself

(10 Marks)

www.lkedu.lk

மாகாணக் கல்வித் திணைக்களம்
வடக்கு மாகாணம்
Provincial Department of Education, Northern Province

மூன்றாம் தவணைப் பரீட்சை – 2022 – (2023)

தரம் - 06	கணிதம்	நேரம்: 2.00 மணித்தியாலங்கள்

சுட்டெண் .....

பகுதி-I

- **எல்லா வினாக்களுக்கும் விடை தருக.**

1) வட்ட வடிவமான பொருட்களுக்கு மூன்று உதாரணங்கள் தருக?

2) 340 ஐ 7 ஆல் வகுக்கும்போது ஈவு யாது?

3) பிரதான திசைகள் இரண்டிற்கு இடைப்பட்ட கோணம் எவ்வாறு அழைக்கப்படும்?

4) சுருக்குக $\frac{1}{5}+\frac{3}{5}$

5) 12இன் காரணிகள் அனைத்தையும் எழுதுக?

6) "இரண்டு பில்லியன் இரண்டு" என்பதை இலக்கத்தில் எழுதுக?

7) ஒரு நாளில் எத்தனை நிமிடங்கள் உள்ளன?

8) < , > பொருத்தமான குறியீட்டை இடுக. (-7)….. (3)

9) 75 இனை கிட்டிய பத்திற்கு மட்டம் தட்டும்போது பெறப்படும் விடை யாது?

10) எமது சூழலில் செங்கோணத்தை அவதானிக்கும் சந்தர்ப்பங்கள் இரண்டு எழுதுக?

11) ஏறுவரிசைப்படுத்துக: 2.23, 0.5, 0.56, 0.23

www.lkedu.lk

12) முதலாவது சேர்த்தி எண் யாது?

13) 1மீற்றரில் எத்தனை மில்லிமீற்றர்கள் உண்டு?

14) புத்தகம் ஒன்றின் விலை ரூபா x உம் பேனா ஒன்றின் விலை ரூபா 25 உம் ஆகும். புத்தகம் ஒன்றையும் இரண்டு பேனாக்களையும் வாங்கத் தேவையான பணத்தை அட்சரகணித கோவையாகத் தருக?

15) 1kg ல் எத்தனை 50g கள் உண்டு?

16) பெறுமானம் காண்க : 4^3

17) 56:21 என்ற விகிதத்தை எளிய வடிவில் எழுதுக

18) x=20 எனில் 38-x ன் பெறுமானம் யாது?

19) மிகப்பெரிய மறை முழு எண் யாது?

20) இன்றைய திகதியினை நியம முறையில் எழுதுக.

(20x2=40 புள்ளிகள்)

பகுதி II

- **ஐந்து வினாக்களிற்கு மட்டும் விடையளிக்க.**

1.

a) ஒரு மில்லியனிலும் மூன்று குறைந்த எண்ணை
   I. நியம முறையில் எழுதுக
   II. சொற்களில் எழுதுக

b) 3,5,0,8 ஆகிய இலக்கங்களை ஒரு முறை மட்டும் பயன்படுத்தி ஆக்கத்தக்க
   I. மிகப்பெரிய எண் யாது?
   II. மிகச்சிறிய எண் யாது?
   III. அவ் இரு எண்களினதும் கூட்டுத்தொகை யாது

c) 2460 புத்தகங்கள் 15 வகுப்புகளிற்கு சமனாகப் பங்கிடப்படின் ஒரு வகுப்பிற்கு கிடைக்கும் புத்தகங்களின் எண்ணிக்கை யாது?

d) 1,5,8,6 ஆகிய இலக்கங்களை ஒரு முறை மட்டும் பயன்படுத்தி பின்வரும் நிபந்தனைகளிற்கமைய உருவாக்கத்தக்க நாவிலக்க எண் ஒன்று தருக.
   - நூறினிடத்து இலக்கம் 8 ஆகும்
   - 5 ஆல் மீதியின்றி வகுபடும்.
   - மிகப்பெரிய எண் ஆகும்

(2+2+1+1+2+2+2)

www.lkedu.lk

2.

a) < , > என்னும் குறியீட்டைப் பயன்படுத்தி ஒப்பிடுக

I. $\frac{3}{7}$.....$\frac{5}{7}$ III. 4.04 ..... 4.40

II. $\frac{3}{5}$ .....$\frac{2}{3}$ IV. 0.03 ..... 0.3

b) சுருக்குக

I. $\frac{2}{3}+\frac{2}{9}$ III. 7.6 + 4.32

II. $\frac{3}{4}-\frac{7}{10}$ IV. 5.8 – 2.95

(1+1+1+1+2+2+2+2)

3.

a) குறித்த ஒரு பாடசாலையில் 6ம் தரத்தில் கற்கும் 38 மாணவர்கள் பாடசாலைக்கு வருகை தரும் விதம் கீழே அட்டவணையில் தரப்பட்டுள்ளது.

பாடசாலைக்கு வருகை தரும் விதம்	மாணவர்களின் எண்ணிக்கை
நடந்து	13
ஈருருளி மூலம்	10
பேரூந்து மூலம்	
வேறு வழிகள் மூலம்	8

I. பேரூந்து மூலம் வருகை தரும் மாணவர்களின் எண்ணிக்கை யாது?

II. ஈருருளி மூலம் வருகை தரும் மாணவர்களின் எண்ணிக்கையினை வரவுக்குறி மூலம் காட்டுக.

b) குறித்த ஒரு பாடசாலையில் 6ம் தரத்தில் கற்கும் 38 மாணவர்களின் குறித்த ஒரு வாரத்திற்கான வருகை கீழே படவரைபில் காட்டப்பட்டுள்ளது.

திங்கள்	😊😊😊😊😊😊
செவ்வாய்	😊😊😊😊😊
புதன்	😊😊😊😊😊😊
வியாழன்	😊😊😊😊
வெள்ளி	😊😊😊😊😊

😊 = 6 மாணவர்கள்

I. செவ்வாய் பாடசாலை வருகை தராத மாணவர்களின் எண்ணிக்கை யாது?

II. சம எண்ணிக்கையான மாணவர்கள் வருகை தந்த தினங்கள் எவை?

III. திங்கள்,வியாழன் வருகை தந்த மாணவர்களின் எண்ணிக்கைக்கிடையிலான விகிதம் யாது?

IV. அவ் வாரத்திற்கான மாணவர்களின் மொத்த வரவு யாது?

(1+2+2+1+2+2)

4.

a) I. (-5) தொடக்கம் (+5) வரை குறிக்கப்பட்ட எண்கோடு ஒன்று வரைக

II. A = (+3) , B = (-1) , C = 0 , D = (-4) என்ற புள்ளிகளை அதன் மீது குறிக்க.

III. அவ் எண்களை இறங்கு வரிசையில் எழுதுக

www.tamiledu.lk

b) 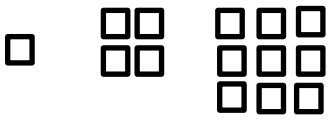

I. இக் கோலத்தின் 4ஆம் 5ஆம் நிலைகளை வரைக

II. இக் கோலத்தினால் காட்டப்படும் எண் வகை யாது ?

c) குறித்த எண் ஒன்றை கிட்டிய 10இற்கு மட்டந்தட்டிய போது 80 பெறப்பட்டதெனின் அவ் எண்ணாக இருக்கத்தக்க மிகப் பெரிய, மிகச் சிறிய எண்களினைத் தருக

(2+2+2+2+2+2)

5.

I. 10 இற்கும் 20 இற்கும் இடைப்பட்ட அனைத்து முதன்மை எண்களையும் தருக?

II. 24,36 என்ற எண்களிற்கு பொதுவான காரணிகள் 4 தருக?

III. 2,4,6 என்ற எண்களின் மடங்காக அமையத்தக்க மிகச்சிறிய எண் யாது?

IV. $7 \times 5 = 35$ எனின் ..... என்ற எண்ணின் மடங்காகவும் ..... என்ற எண்ணின் மடங்காகவும் 35 காணப்படும்.

V. வெற்றுக் கூடுகளை நிரப்புக $\mathbf{81} = \square^{\mathbf{2}} = \mathbf{3}^{\square}$

VI. கண்ணன் வீட்டில் இருந்து பாடசாலைக்கு x km தூரத்தினை புகையிரத்திலும் y km தூரத்தினை நடந்துமாக செல்கிறான். புகையிரதத்தில் சென்ற தூரம் 11 km எனின் வீட்டில் இருந்து பாடசாலைக்கு சென்று மீண்டும் வீட்டிற்கு வரும் தூரத்திற்கான அட்சர கணித கோவையை தருக?

(2+2+2+2+2+2)

6.

kg	m	
	km	cm
mg	g	

I. மேலே தரப்பட்ட அலகுகளை இரண்டு கூட்டங்களாக வகைப்படுத்துக.

II. அவற்றிற்கு பொருத்தமான பெயர் இடுக

III. பின்வருவனவற்றிற்கு பொருத்தமான அலகுகளை தரப்பட்ட அலகுகளில் இருந்து தெரிவுசெய்க

a) யாழ்ப்பாணத்திலிருந்து கொழும்பிற்கிடையிலான தூரம்

b) மாணவன் ஒருவனின் திணிவு

IV. மெல்லிய கயிற்றினால் அமைக்கப்பட்ட தரப்பட்ட நாற்பக்கல் ஒன்றின் சுற்றளவிற்கு சமமான சுற்றளவுடைய சதுரத்தின் ஒரு பக்கநீளம் யாது?

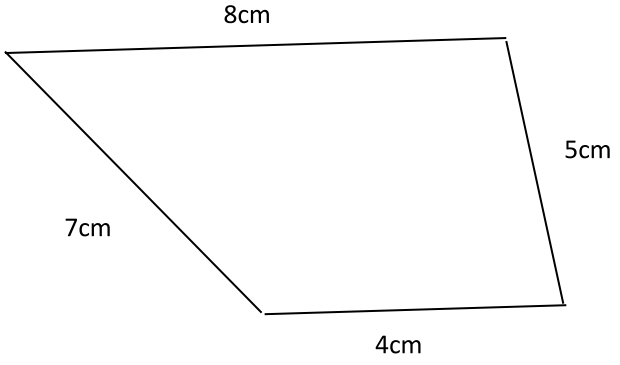

V. 500ml ,200ml கொள்ளளவுடைய போத்தல்களை மாத்திரம் பயன்படுத்தி 300ml திரவத்தினை அளக்கும் முறையொன்று தருக

VI. 4kg 650g திணிவினை தராசு மூலம் அளப்பதற்கு தேவையான படிக்கற்களைத் தருக.

(2+2+2+2+2+2)

www.lkedu.lk

மாகாணக் கல்வித் திணைக்களம்
வடக்கு மாகாணம்
Provincial Department of Education, Northern Province

மூன்றாம் தவணைப் பரீட்சை – 2022 – (2023)

தரம் - 06	விஞ்ஞானம் – I,II	நேரம்: 2.00 மணித்தியாலங்கள்

பெயர் / சுட்டெண் .....

பகுதி 1

01) மிகப் பொருத்தமான விடையின் கீழ் கோடிடுக

1. பின்வருவனவற்றுள் நுண்ணங்கிகளின் அடிப்படை பண்பாக **அமையாதது,**
   1. தனிக்கலமாக இருக்கும் போது வெற்றுக்கண்ணுக்கு தெரியாது.
   2. எல்லா நுண்ணங்கிகளும் விலங்குகளுக்கு தொற்று நோயை ஏற்படுத்தும்.
   3. நுண்ணங்கிகள் நீரில் வாழும்.
   4. நுண்ணங்கிகள் பல்வேறு முறைகளில் இடம்பெயரக் கூடியன.

2. ராகவ் இரண்டு ஒத்த கொள்கலன்களில் ஒவ்வொன்றிலும் ஒரு சிறிய ஒலிபிறப்பாக்கியை வைத்திருந்தார். ஒலிப்பிறப்பாக்கியை இயக்கிய போது ராகவின் அவதானத்தைப் படம் காட்டுகின்றது பின்வருவனவற்றுள் எது ராகவினது அவதானத்திலிருந்து பெறக்கூடிய முடிவாக அமையும்
   1. ஒலி அலை வடிவில் செல்லும்
   2. ஒலி அதிர்வைப் பிறப்பிக்கும்
   3. ஒலி வெற்றிடத்தினூடாகச் செல்லும்
   4. ஒலி வாயுக்களைவிட திண்மங்களினூடாக வேகமாகச் செல்லும்.

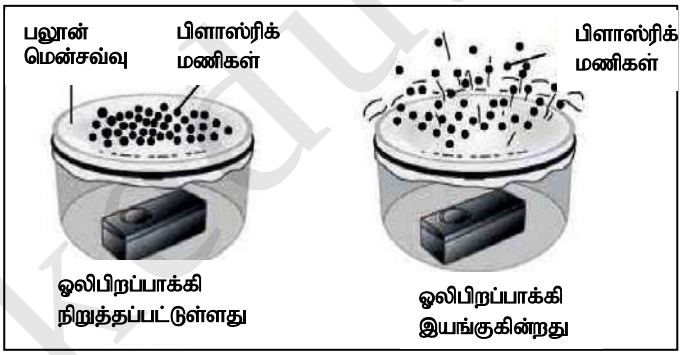

3. இப்பரிசோதனை மூலம் பெறக்கூடிய முடிவாக அமைவது,
   1. ஒளி நேர்கோட்டில் பயணம் செய்யும்.
   2. பல ஒளிக்கதிர்கள் சேர்ந்து ஒளிக்கற்றையை உருவாக்குகின்றன.
   3. ஒளி பிரகாசமானது.
   4. மேற்கூறிய யாவும் சரியானது.

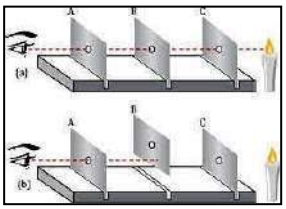

4. **தவறான** கூற்றைத் தெரிவு செய்க
   1 நீரில் கரைந்துள்ள உப்பின் அளவு உவர்திறன் எனப்படும்.
   2. உவர்திறன் அதிகரிக்கும்போது நீரின் திணிவும் அதிகரிக்கும்.
   3. உவர்திறனின் அடிப்படையில் நீரானது நன்னீர், சவர்நீர், உவர்நீர் என வகைப்படுத்தப்படும்.
   4. நன்னீரில் கரைந்துள்ள உப்பின் அளவு அதிகமாகும்.

5. கதிரிடம் வெவ்வேறு பொருட்களால் செய்யப்பட்ட தாள்கள் காணப்பட்டன. அவற்றிற்கூடாக கதிர் மெழுகுதிரிச் சுவாலை ஒன்றினை அவதானித்தான் . மெழுகுதிரிச்சுவாலை கதிருக்கு தோன்றும் விதம் அட்டவணையில் காட்டப்பட்டுள்ளது.



தாள்	சுவாலை தோன்றும் விதம்
தாள்1	நன்றாகத் தெரிந்தது
தாள் 2	மங்கலாகத் தெரிந்தது
தாள் 3	தெரியவில்லை
தாள் 4	நன்றாகத் தெரிந்தது

இப்பரிசோதனையில் இருந்து பெறக்கூடிய முடிவு,
1. தாள் 1, 2 ஒளி ஊடுபுகவிடும் தன்மையுடையவை.
2. தாள் 4 ஒளி கசியவிடும் தன்மையுடையது.
3. தாள் 2, 3 ஒளி ஊடுபுகவிட முடியாதவை
4. தாள் 1, 4 ஒளி ஊடுபுகவிடும் தன்மையுடையவை

6. சரியான விடையைத் தெரிவு செய்க.
   1. L.P. வாயு உயிர்த்திணிவுக்கு ஓர் உதாரணமாகும்
   2. பூமியினுள்ளே முடிவடையாத சுவட்டு எரிபொருள் சேமிப்பு உள்ளது
   3. நீர் மற்றும் காற்றாலை மின் நிலையங்கள் சூழல் நேயமானவை
   4. அணுக்கழிவுகளை மிக இலகுவாக சூழலிலிருந்து அகற்றலாம்

www.lkgu.lk

7. கமலா நீருள்ள குவளை ஒன்றினுள் ஸ்ரோவினைப் பயன்படுத்தி ஊதும் போது நீரினுள் வளிக்குமிழிகள் தோன்றின. இவ் அவதானத்திலிருந்து பெறக்கூடிய முடிவு



1. வளிக்குத் திணிவு உண்டு.
2. வளி இடத்தைப் பிடிக்கும்.
3. வளியினால் அமுக்கத்தை ஏற்படுத்த முடியும்.
4. வளியில் நீராவி உள்ளது.

8. எந்த கார்கள் ஒன்றையொன்று தள்ளும்?

1. 3 2. 4 3. 1,3 4. 2,4

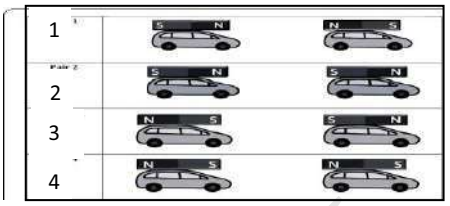

மின்குமிழ்

9. அதிக வெப்பத்தை உறிஞ்சக்கூடிய நிறம்,
   1. வெள்ளி 2. கறுப்பு
   3. வெள்ளை 4. சிவப்பு

10. படத்தில் காட்டப்பட்டது போன்று நிரோஜா மின்சுற்றொன்றை அமைத்தார். மின்சுற்றிலுள்ள இடைவெளியினுள் 4 வெவ்வேறு பொருட்களை வைத்து அவதானிக்கும்போது சிறந்த மின் கடத்தியாக இருப்பது,
   1. பென்சில் கூர் 2. பிளாஸ்ரிக்
   3. உலர்ந்த கடதாசி 4. உலர்ந்த மரக்குற்றி **(20 புள்ளிகள்)**

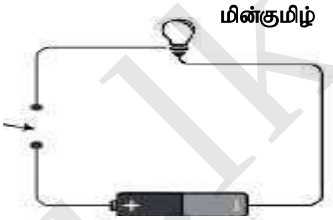

மின்கலம்

02) தரப்பட்ட சொற்களைப் பயன்படுத்தி கீறிட்ட இடங்களை நிரப்புக.

வாயு , சக்தி உப்பு , பக்றீரியா , பெற்றோல்

1. கடல் நீரில் ..... கரைந்துள்ளது.
2. ..... ஒழுங்கான வடிவத்தையோ திட்டமான கனவளவையோ கொண்டிருக்காது.
3. ..... வாகனங்களுக்கு எரிபொருளாகப் பயன்படுத்தப்படும்.
4. ..... தயிர் உற்பத்திக்கு பயன்படுத்தப்படும் ஒருவகை நுண்ணங்கி ஆகும்.
5. வெளியில் இடத்தை அடைக்காததும் திணிவைக் கொண்டிராததும் .....ஆகும். **(10 புள்ளிகள்)**

03) பின்வரும் கூற்றுக்கள் சரியாயின் (√) எனவும் பிழையாயின் (×) எனவும் அடைப்பினுள் குறிக்குக

1. அலங்காரத் தொழினுட்பத்திற்காக ஒளியியல் நார்கள் பயன்படுத்தப்படுகின்றன ( )
2. நிலக்கரி உயிர்த்திணிவு ஆகும் ( )
3. தாவரங்கள் கனியுப்புக்களை அகத்துறிஞ்சுவதற்கு நீர் ஒரு ஊடகமாக பயன்படுகின்றது ( )
4. ஒலி ஒரு சக்தி வடிவமாகும் ( )
5. மின்னோட்டம் உலோகங்களினூடாக பாயும் ( ) **(10 புள்ளிகள்)**

பகுதி - II

விரும்பிய நான்கு வினாக்களுக்கு விடையளிக்குக.

01.A.அங்கிகளின் சிறப்பியல்புகள் தொடர்பில் தரம் 6 மாணவர்கள் கற்றறிந்த சந்தர்ப்பங்கள் சில வருமாறு.

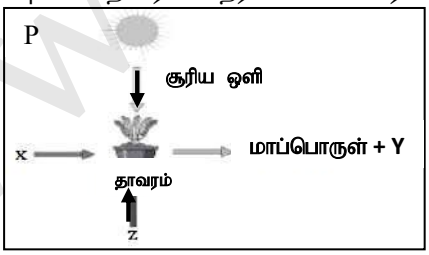

தாவரங்களில் உணவு தொகுப்பு



வெளிச்சுவாச வளியிலுள்ள வாயுவை அறிதல்

1. சந்தர்ப்பம் P யில்,
   1. உள்ளெடுக்கப்படும் பதார்த்தங்கள் X,Z ஐ இனங்காண்க.
   2. வெளிவிடப்படும் பதார்த்தம் Y யாது?
   3. இங்கு நடைபெறும் உணவு உற்பத்திச் செயன்முறை யாது?

2. சந்தர்ப்பம் Q இல்,
   1. தெளிந்த சுண்ணாம்பு நீரின் நிறம் யாது?
   2. இங்கு பெறக்கூடிய அவதானம் யாது?
   3. அவதானத்திலிருந்து எடுக்கக் கூடிய முடிவு யாது?

www.ikeduk

B. அங்கிகளின் போசணை அடிப்படையிலான இடைத்தொடர்பு ஒன்று தரப்பட்டுள்ளது.

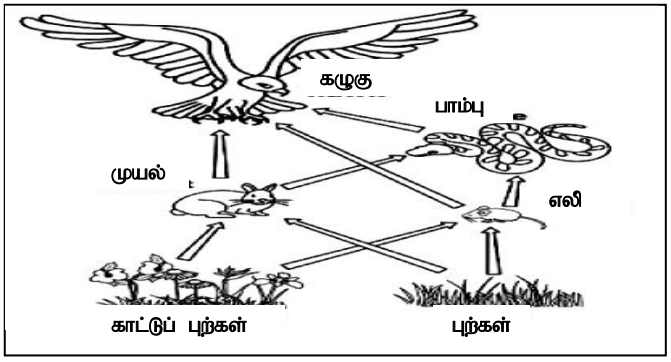

1. இவ்அமைப்பு எவ்வாறு அழைக்கப்படும்?
2. உற்பத்தியாளர்களைப் பெயரிடுக.
3. நுகரிகளைப் பெயரிடுக.
4. தரப்பட்ட உணவு வலையில் இருந்து 3 இணைப்புக்களைக் கொண்ட உணவுச் சங்கிலி ஒன்றை எழுதுக.
5. அனைத்து முயல்களும் சடுதியாக இறந்தால் இவ் உணவு வலையில் நடைபெறும் மாற்றம் யாது? **(15 புள்ளிகள்)**

02. A மின்துணைக்கூறுகள் சிலவற்றின் குறியீடுகள் தரப்பட்டுள்ளன.

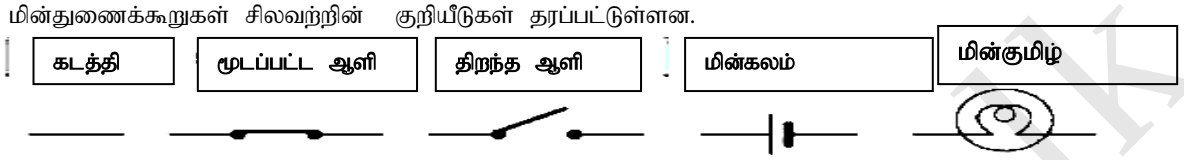

1. தரப்பட்ட குறியீடுகளைப் பயன்படுத்தி கீழே தரப்பட்ட அறிவுறுத்தல்களுக்கமைய மின்சுற்றொன்றை வரைக.
   மின்கலம் ஒன்று
   ஆளி திறந்த நிலை
   இரண்டு மின்குமிழ்கள் (இரண்டும் அதிக பிரகாசத்துடன் ஒளிரக்கூடியதாக)

B. வெவ்வேறு முறைகளில் மின் உற்பத்தி செய்யும் அமைப்புக்கள் இரண்டு படத்தில் காட்டப்பட்டுள்ளன.

A

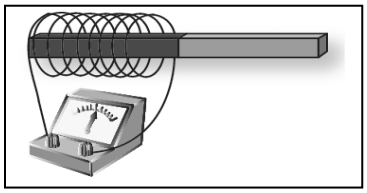

B

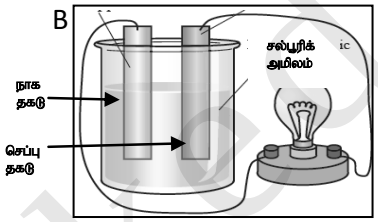

1. அமைப்பு A யில் எவ்வாறு மின் உற்பத்தி செய்யப்படுகின்றது?
2. இந்த செயற்பாட்டின் மூலம் பெறக்கூடிய ஒரு அவதானத்தை எழுதுக.
3. அமைப்பு A இன் தத்துவத்தினடிப்படையில் அன்றாட வாழ்க்கையில் மின் உற்பத்தி செய்யப்படும் உபகரணம் ஒன்றைப் பெயரிடுக.
4. அமைப்பு B இல் இரு அவதானங்களை எழுதுக.
5. B இல் மின்குமிழுக்குப் பதிலாக கல்வனோமானியை இணைத்து அவதானித்தல் சிறந்தது என மாணவன் கூறினான்.
   1. இக்கூற்று சரியானதா? அல்லது தவறானதா?
   11. உமது விடைக்கான காரணத்தை தருக.

C. மின்னோட்டத்துடன் தொடர்புடைய அருகிலுள்ள செயற்பாட்டை மாணவர் குழு ஒன்று ஒழுங்கமைத்திருந்தது.

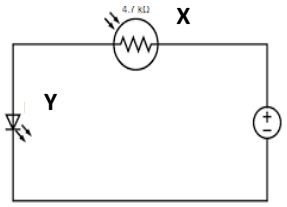

1. X , Y இனைப் பெயரிடுக.
2. ஆளிமூடப்பட்ட போது Y சிறிதளவு பிரகாசத்துடன் ஒளிர்ந்தது. தற்போது உபகரணம் X மீது மின்சூளினால் ஒளியூட்டப்பட்டது. உமது அவதானம் யாது? காரணம் தருக?
3. உபகரணம் X கறுப்புத்தாளினால் மூடப்பட்டிருப்பின், அவதானம் யாது? காரணம் தருக.

(15 புள்ளிகள்)

03. A. 1. நெய் கொண்ட கண்ணாடிப் போத்தல் உலோக மூடியினால் இறுக்கமாக மூடப்பட்டிருந்தது. இம் மூடியினைக் கழற்ற மூடியாமல் இருந்தமையால் மாணவன் இதனை சூடான நீரினுள் இட்டான். 15 நிமிடங்களின் பின்னர் வெளியே எடுத்தபோது மூடியினைக் கழற்றக்கூடியதாக இருந்தது. இங்கு உலோக மூடியினைக் கழற்றுவதற்கு சூடான நீர் எவ்வாறு உதவியது?

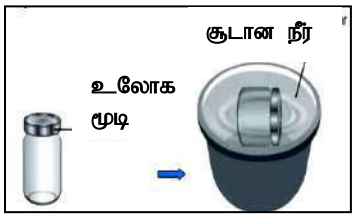

B. கழுவிய ஆடைகளை உலர வைக்கும்போது ஆடைகளில் இருந்த நீரானது நீராவியாக மாறி வளிமண்டலத்திற்கு செல்வதனால் அவை உலருகின்றன.
   1. நீர் நீராவியாக மாறும் செயற்பாடு எவ்வாறு அழைக்கப்படும்?

www.ikeu.lk

2. வளிமண்டல நீராவி மழையாக மாறும் செயற்பாடு எவ்வாறு அழைக்கப்படும்?
3. "வெய்யில் நாளிலே ஈர ஆடைகள் விரைவாக உலருகின்றன." விளக்குக.

C. வெப்ப விளைவொன்றை அறிவதற்காக மாணவர் குழு ஒன்றினால் அமைக்கப்பட்ட செயற்பாடு தரப்பட்டுள்ளது.

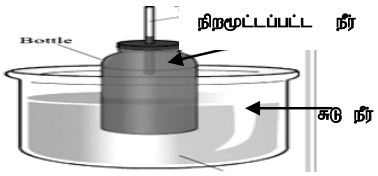

1. இங்கு உமது அவதானம் யாது?
2. அவதானத்திற்கான காரணம் யாது?
3. இச் செயற்பாட்டின் மூலம் வெப்பத்தின் எவ்விளைவு சோதிக்கப்படுகின்றது?

D. பூமியின் வெப்பநிலை படிப்படியாக அதிகரிப்பதாக விஞ்ஞானிகள் எதிர்வு கூறியுள்ளனர்.
1. இதற்கான காரணங்கள் 2 தருக.
2. இதனால் ஏற்படும் பாதகமான விளைவுகள் 2 தருக.

(15 புள்ளிகள்)

04. A. 1. காலநிலை தொடர்பான அளவீடுகளைப் பெற பயன்படுத்தப்படும் உபகரணங்கள் தரப்பட்டுள்ளன. இவற்றைப் பெயரிடுக.

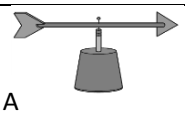 A	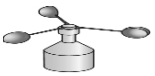 B	 C

மாதம்	மழை வீழ்ச்சி (mm)
தை	40
மாசி	10
பங்குனி	80
சித்திரை	90
வைகாசி	200
ஆனி	185
ஆடி	200

B. நகரம் ஒன்றினது மழைவீழ்ச்சி அட்டவணையில் தரப்பட்டுள்ளது.
1. அதிக மழைவீழ்ச்சி பெறப்பட்ட மாதம் எது?
2. குறைந்தளவு மழைவீழ்ச்சி பெறப்பட்ட மாதம் எது?
3. பதிவு செய்யப்பட்ட அதிக பட்ச மழைவீழ்ச்சிக்கும் குறைந்த பட்ச மழைவீழ்ச்சிக்கும் இடையில் காணப்படும் வித்தியாசம் எவ்வளவு ?
4. மழை காலமாகக் கருதப்படக்கூடிய மாதங்கள் எவை?
5. மழைவீழ்ச்சியை அளவிடப் பயன்படுத்தப்படும் உபகரணம் யாது?

C. 1. காலநிலைக்கும் வானிலைக்கும் இடையில் உள்ள வேறுபாடு யாது ?
2. புவியில் ஏதேனும் ஒரு இடத்தில் ஏற்படும் அமுக்கக் குறைவு காரணமாக வேறொரு பிரதேசத்தில் இருந்து காற்று வேகமாக வீசுவதால் ஏற்படும் இயற்கை அழிவிற்கு வழங்கும் பெயர் யாது?
3. அதிக மழைப்பொழிவு காரணமாக ஏற்படும் பேரிடர் நிலையைப் பெயரிட்டு அதனால் ஏற்படும் தீயவிளைவு ஒன்றைத் தருக?
4. ஈரப்பதனை அளவிடப் பயன்படுத்தப்படும் உபகரணத்தைப் பெயரிடுக. **(15 புள்ளிகள்)**

05.A.1.பின்வரும் அமைப்பு காந்தத்தின் இயல்பைப் பரிசோதிப்பதற்காக ஒழுங்கமைக்கப்பட்டது. இரும்பாணி, பென்சில் வேறொரு சட்டக் காந்தத்தை தனித்தனியே தரப்பட்டுள்ள சட்டக் காந்தத்திற்கு அருகில் கொண்டு செல்லும்போது பெறப்படும் அவதானங்களை அட்டவணையில் எழுதுக.

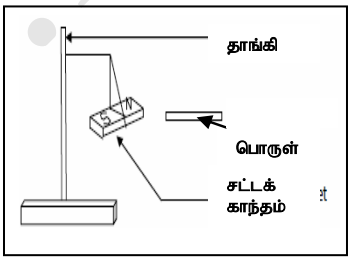

பொருள்	அவதானம்
இரும்பாணி	
பென்சில்	
சட்டக்காந்தம்	

2.முனை தெரியாத சட்டக்காந்தம் ஒன்று தொங்கவிடப்பட்ட சட்டக்காந்தத்தின் வடமுனையை நோக்கி கொண்டுவரப்பட்ட போது காந்தங்கள் ஒன்றையொன்று தள்ளின. இதற்கான காரணம் யாது?
3. வினா 2 இல் குறிப்பிடப்பட்ட சட்டக்காந்தம் கவரப்பட வேண்டுமாயின், தொங்கவிடப்பட்ட காந்தத்திற்கு அருகே எந்த முனையைக் கொண்டுவர வேண்டும்?
4. காந்தம் பயன்படுத்தப்படும் இரண்டு உபகரணங்களினைப் பெயரிடுக.

B. காந்தத்தின் வலிமையை அவதானிப்பதற்கு செய்யப்பட்ட பரிசோதனை அமைப்பு அருகில் தரப்பட்டுள்ளது. இரு சட்டக்காந்தங்களினாலும் தாங்கக்கூடிய அதிகபட்ச ஆணிகளைப் படம் காட்டுகின்றது. இவ் அவதானத்தின் மூலம் எம் முடிவிற்கு வருவீர்?

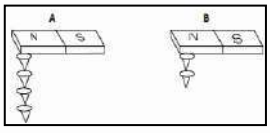

C. பிளாஸ்ரிக் போத்தலினுள் இரும்புக்குண்டுகள் இடப்பட்டு போத்தல் மூடியின் மேல் வலிமையான சட்டக்காந்தம் வைக்கப்பட்டுள்ளது.
1. போத்தலை நிலைக்குத்தாக குலுக்கும் போது அவதானம் யாது?
2. இந்த அவதானத்திற்கான காரணத்தை தருக **(15 புள்ளிகள்)**

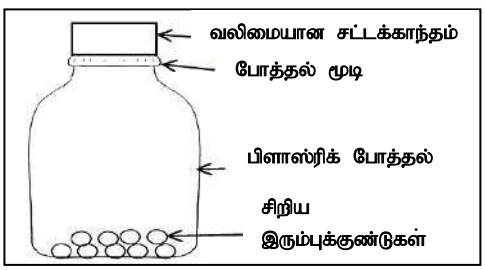

www.kedi.lk

மாகாணக் கல்வித் திணைக்களம்
வடக்கு மாகாணம்
Provincial Department of Education, Northern Province

மூன்றாம் தவணைப் பரீட்சை – 2022 – (2023)

தரம் - 06	வரலாறு – I,II	நேரம்: 2.00 மணித்தியாலங்கள்

பெயர் / சுட்டெண் .....

பகுதி-I

- **சரியான விடையைத் தெரிவு செய்க.**

01. இலக்கிய மூலாதாரமாகிய தீபவம்சம் எத்தனையாம் நூற்றாண்டில் எழுதப்பட்டது?
1. கி.பி 4ம் நூற்றாண்டு 2.கி.பி 5ம் நூற்றாண்டு 3.கி.பி 3ம் நூற்றாண்டு 4.கி.பி 6ம் நூற்றாண்டு

02. கீழைத்தேசங்களின் தானியக்களஞ்சியம் என முற்காலத்தில் அழைக்கப்பட்ட நாடு?
1. இலங்கை 2. இந்தியா 3. பாகிஸ்தான் 4. இந்தோனேசியா

03. நெற்செய்கையானது முதன் முதலில் ஆரம்பிக்கப்பட்ட நாடு?
1. சீனா 2. இலங்கை 3. அமெரிக்கா 4. இந்தியா

04. மொசப்பத்தேமியா என்பதன் கருத்து
1. இரு நதிகளைக் குறிக்கின்றது
2. பள்ளத்தாக்கை குறிக்கின்றது
3. இரு நதிகளுக்கிடையே அமைந்துள்ள நாடு என்பதாகும்
4. நாகரிகத்தின் வளர்ச்சியைக் குறிக்கின்றது

05. கற்காலத்தின் களிமண்ணால் செய்யப்பட்ட அரிவாள் செய்யப்பட்ட ஆண்டு?
1. கி.மு.3000 2. கி.மு.2000 3. கி.மு. 1000 4. கி.மு.2500

06. ஆபிரிக்காவில் வாழ்வோரின் முகங்கள் சீனாவில் வாழ்வோரின் முகங்களைவிட வித்தியாசமானவையாகும் இவ்விரு இனங்கள் முறையே ?
1. நீக்ரொயிட், மொங்கலொய்ட் 2. நீக்ரொயிட்,ஒஸ்ரிலொயிட்
3. மொங்கலொய்ட்,கொக்கசொய்ட் 4. ஒஸ்ரிலொயிட், கொக்கசொய்ட்

07. மனிதன் முதன் முதல் நெருப்பைப் பயன்படுத்தியமைக்கான சான்று கண்டுபிடிக்கப்பட்ட இடம்?
1. அமெரிக்கா 2. இஸ்ரவேல் 3. இலங்கை 4. சீனா

08. புதிய கற்காலத்தில் மனிதனால் மேற்கொள்ளப்பட்ட முக்கியமான நடவடிக்கைகளில் ஒன்று?
1. விவசாயம் செய்யப் பழகிக் கொண்டமை
2. மனிதன் வேட்டையாடி உணவைச் சேகரித்தமை
3. இறந்தவர்களின் எலும்புகள் மீது வர்ணம் பூசியமை
4.கற்களைக் கொண்டு உருவம் அமைத்தமை

09. விஜயனும் அவனது குழுவினரும் இலங்கையில் வந்து இறங்கிய இடம் எது?
1. அநுராதகம 2. உருவெலகம 3. தம்பபன்னி 4. மாகம

10. அநுராதபுரத்தை திட்டமிட்டு தலைநகரமாக்கிய மன்னன் ?
1. பண்டுகாபயன் 2. தேவநம்பியதீசன் 3. துட்டகைமுனு 4. எல்லாளன்

www.ikedu.lk

11. தேவநம்பிய தீசனின் ஆட்சிக்காலத்தில் இந்தியப்பேரரசனாக விளங்கியவன்?
1. அசோகன் 2. துக்ளக் 3. அக்பர் 4. கலிங்கன்

12. துட்டகைமுனு மன்னனால் கட்டுவித்த விகாரைகள் எத்தனை?
1. 100 2. 98 3. 99 4. 90

13. கலாஓயா, மல்வத்துஓயா போன்ற நதிகளின் பழைய பெயர்கள் முறையே.
1. கோணநதி,கதம்பநதி 2. கோணநதி,ஜஜ்ஜிரநதி
3. வனவாகினிநதி,கதம்பநதி 4. கதம்பநதி,கல்யாணிநதி

14. இதுதான் எனது செல்வம் என்று தமது பிள்ளைகளுக்கு கலாவாவியின் தண்ணீரை அள்ளிக்காட்டிய அரசன்?
1. தாதுசேனன் 2. மகாசேனன் 3. வசபன் 4. பண்டுகாபயன்

15. வல்லிபுர பொற்சாசனத்தை பொறித்த மன்னன் ?
1. வசபன் 2. 2ம் அக்போ 3. தாதுசேனன் 4. துட்டகைமுனு

16. புராதன காலத்தில் மொசப்பத்தேமியா என்று அழைக்கப்பட்ட நாடு?,
1.ஈரான் 2. ஈராக் 3. எகிப்து 4.சீனா

17. அனுராதபுரத்தை 44ஆண்டுகள் நீதி தவறாமல் ஆட்சி புரிந்த மன்னன்?
1. மகாசேனன் 2. துட்டகைமுனு 3. எல்லாளன் 4. பண்டுகாபயன்

18. மகாவம்சத்தில் குறிப்பிடப்பட்டுள்ளவாறு இலங்கையை வந்தடைந்த முதலாவது ஆரிய இனக்குழுவின் தலைவன்?
1. அனுராத 2. விஜயன் 3. சிங்கபாகு 4. உருவெல

19. வெள்ளரசு மரக்கிளையை கொண்டு வந்த பிக்குனி சங்கமித்தை வந்திறங்கிய இடம்?
1. ஜம்புகோளபட்டினம் 2. தம்பபன்னி 3. கோகர்ண 4. அநுராதகம

20. அபயகிரி விகாரையை கட்டவித்த மன்னன்?
1. வலகம்பா 2. துட்டகைமுனு 3. பண்டுகாபயன் 4. வசபன்

(20×2= 40 புள்ளிகள்)

பகுதி-II

- **முதலாம் வினா கட்டாயமானது.**
- **முதலாம் வினா உட்பட எவையேனும் 5 வினாக்களுக்கு விடை தருக.**

01. (அ) உலகப்புறவுருவப்படமொன்றில் பின்வருவனவற்றைக் குறித்துக் பெயரிக.
1. சீனா 2.எகிப்து 3. இலங்கை
4. அவுஸ்ரேலியா 5.இந்தியா 6. மொசப்பத்தேமியா நாகரிகம்

(6 ×1 =6 புள்ளிகள்)

(ஆ) இலங்கைப்புறவுருவப்படமொன்றில் பின்வருவனவற்றைக் குறித்துக் காட்டுக.
1.மன்னார் 2. மல்வத்து ஓயா 3.ஜம்புகோளப்பட்டிணம்
4.தம்பபன்னி 5.அனுராதபுரம் 6. திருகோணமலை

(6x1=6 புள்ளிகள்)

www.lkedu.lk

(இ) 1. அருகிலுள்ள படம் குறிப்பது யாது?
2. எந்த நாகரீகத்திற்குரியதாகும்?
3. இது எந்த நாட்டில் காணப்படுகின்றது?
4. இவற்றினுடைய சிறப்பம்சம் யாது?

(4 ×2= 8 புள்ளிகள்)



02. (அ) வரலாறு என்றால் என்ன? (3 புள்ளிகள்)
(ஆ) வரலாற்றைக் கற்பதனால் பெறும் பயன்கள் மூன்றைக் குறிப்பிடுக. (3 புள்ளிகள்)
(இ) வரலாற்றுக் காலத்தை அளவிடும் முறைகளுள் எவையேனும் இரண்டைக் குறிப்பிடுக. (4 புள்ளிகள்)

03. (அ) சிந்து நதி நாகரிகத்தில் காணப்பட்ட நகரங்கள் 3 தருக. (3 புள்ளிகள்)
(ஆ) மொசப்பத்தேமியா நாகரிகத்தில் காணப்பட்ட 3 சமூகப்பிரிவுகள் எவை? (3 புள்ளிகள்)
(இ) எகிப்திய பிரமிட்டுகள் பற்றி இரு பண்புகளை எழுதுக. (4 புள்ளிகள்)

04. (அ) விஜயன் இலங்கைக்கு வருகை தருவதற்கு முன் இங்கிருந்த இரு மக்கள் குழுவினர் யாவர்? (3 புள்ளிகள்)
(ஆ) விஜயனுடன் வருகை தந்த குழுவினர் முதன் முதலில் எந்த நதிக்கரைகளை அண்டியதாக குடியேறினர்? (3 புள்ளிகள்)
(இ) புதிதாக கற்காலத்தில் ஏற்பட்ட மாற்றங்கள் இரண்டு தருக. (4 புள்ளிகள்)

05 (அ) மகாசேனன் மன்னனால் அமைக்கப்பட்ட தூபிகள் இரண்டைக் குறிப்பிடுக. (3 புள்ளிகள்)
(ஆ) தாதுசேன மன்னனால் நீர்ப்பாசனத்துக்கு ஆற்றப்பட்ட சேவைகள் 3 தருக. (3 புள்ளிகள்)
(இ) நிர்வாகத்தை இலகுவாக்கும் பொருட்டு வசபமன்னனால் மேற்கொள்ளப்பட்ட நடவடிக்கைகள் இரண்டு தருக. (4 புள்ளிகள்)

06. (அ) துட்டகைமுனு மன்னனால் அமைக்கப்பட்ட விகாரைகள் இரண்டு தருக. (3 புள்ளிகள்)
(ஆ) தேவநம்பிய தீச மன்னனின் பௌத்த சமய சேவைகள் மூன்றைக் குறிப்பிடுக. (3 புள்ளிகள்)
(இ) பண்டுகாபயன் அனுராதபுரத்தை நிர்மாணித்த விதம் பற்றி குறிப்பிடுக. (4 புள்ளிகள்)

www.ikedu.lk

(அ)

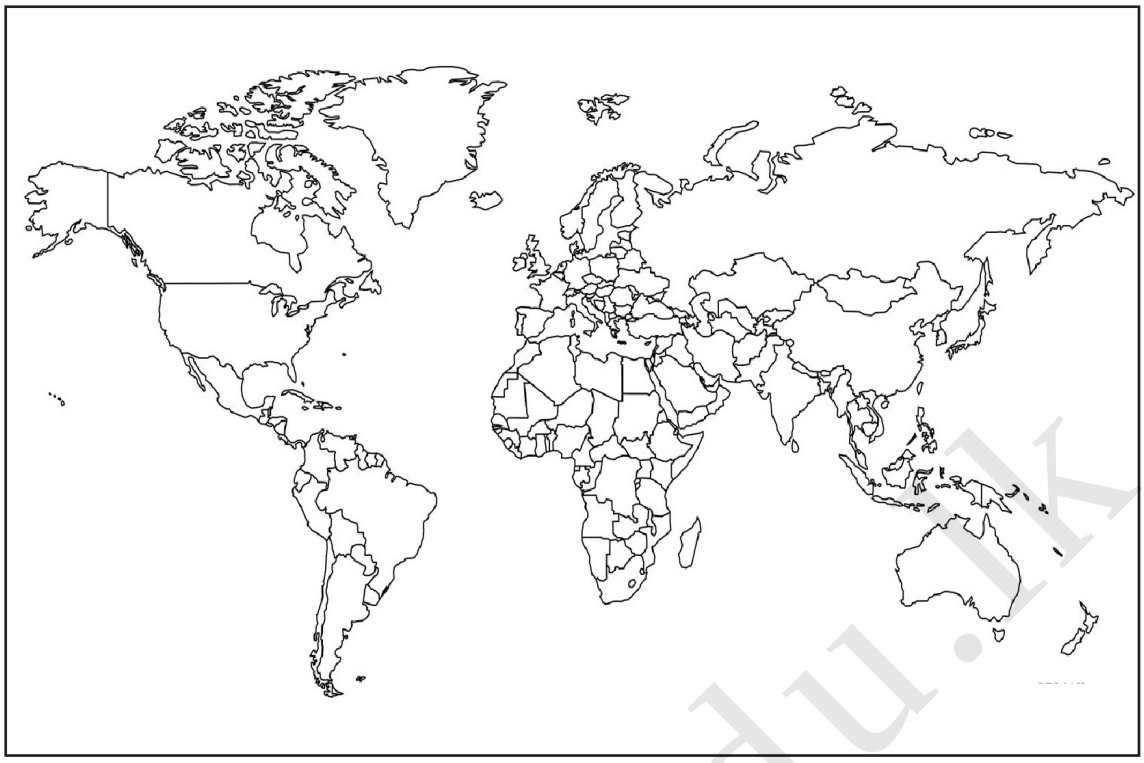

(ஆ)

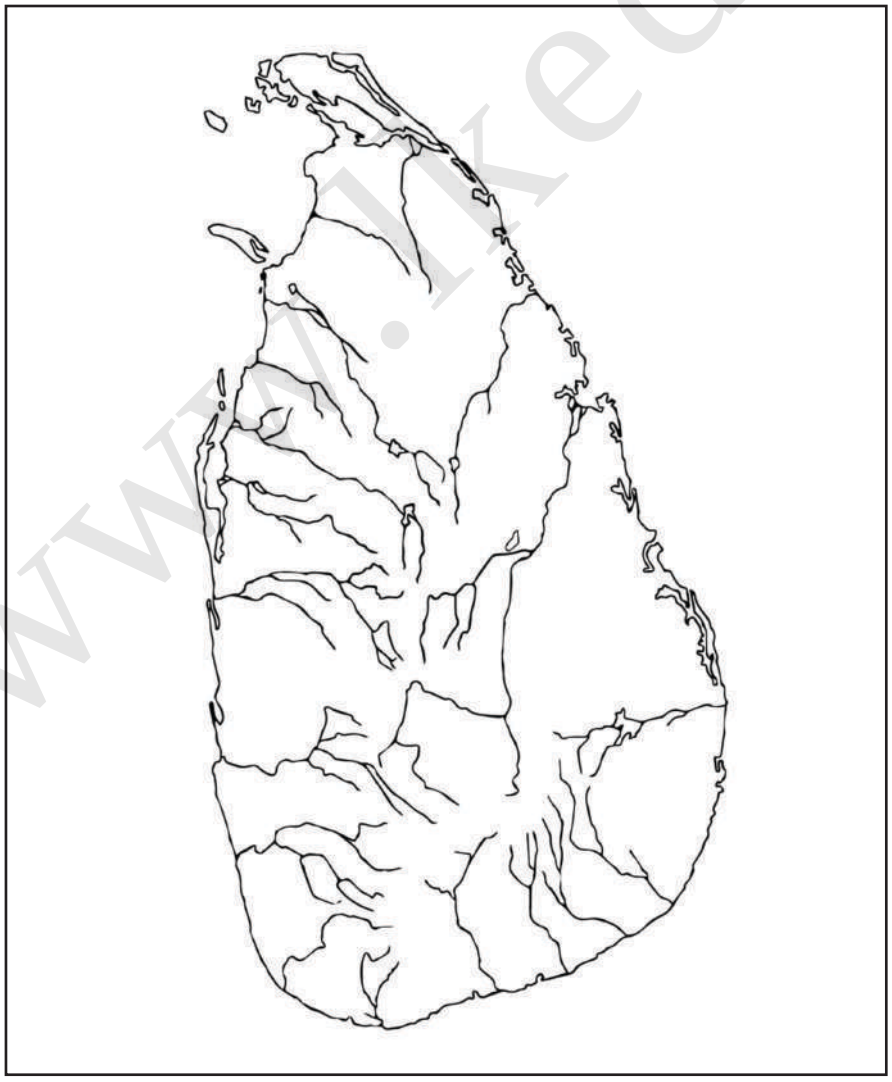

www.tkedu.lk

மாகாணக் கல்வித் திணைக்களம்
வடக்கு மாகாணம்
Provincial Department of Education, Northern Province

மூன்றாம் தவணைப் பரீட்சை – 2022 – (2023)

தரம் - 06	குடியியற் கல்வி – I,II	நேரம்: 2.00 மணித்தியாலங்கள்

பெயர் / சுட்டெண் .....

பகுதி-I

- **எல்லா வினாக்களுக்கும் விடையளிக்கவும்.**
- **பொருத்தமான விடையின் கீழ் கோடிடுக.**

01. பெரும்பாலான பாடசாலைக் கீதங்களில் பாடசாலையானது.....போன்று மதிக்கப்பட்டு இயற்றப்பட்டிருக்கும்.
1. அதிபர் 2. ஆசிரியர் 3. தாய் 4. மாணவர்கள்

02. கல்விச் செயற்பாடுகளின் தலைவராகச் செயற்படும் நடிபங்கிற்குரியவர்,
1. அதிபர் 2. நலன் விரும்பிகள் 3. பெற்றோர் 4. மதகுரு

03. பிள்ளைகளது அடிப்படை உரிமைகளைப் பாதுகாக்கும் பாடசாலை,
1. பிரிவேனாப் பாடசாலை 2. தேசிய பாடசாலை
3. ஆரம்பப் பாடசாலை 4. பிள்ளை நேயப் பாடசாலை

04. பாடசாலையின் இலக்கினை அடைய பங்களிப்புச் செய்யும் குழு,
1. பாடசாலை அபிவிருத்தி நிறைவேற்றுக் குழு, பாடசாலை முகாமைத்துவ குழு,
2. ஒழுக்காற்றுக்குழு
3. விளையாட்டுக்குழு
4. நலன்விரும்பிகள் குழு

05. மாவட்டத்தின் தலைவர் யார்
1. தலைவர் 2. மாவட்டச்செயலாளர் 3. தவிசாளர் 4. கிராமசேவையாளர்

06. நுணுக்கமாகச் செவிமடுப்பவரின் துலங்கல்களில் ஒன்று,
1. கேள்வி கேட்டல் 2. தவறாகப்புரிதல் 3. அவமதித்தல் 4. ஒழுக்கமின்மை

07. மனித வளங்களிற்கான உதாரணமாக கொள்ளப்படுவது,
1. சூரியவெளிச்சம், செங்கல் 2. நீர், மரத்தளபாடம்
3. கண்ணாடிப்பொருட்கள், கூரை ஓடுகள் 4. செங்கல், நிலம்

08. அவுக்கண புத்தர் சிலை எங்கே அமைக்கப்பட்டிருக்கின்றது?
1. திருகோணமலை 2. வவுனியா 3. அனுராதபுரம் 4. யாழ்ப்பாணம்

09. அவுக்கண புத்தர்சிலையின் உயரம்,
1. 48அடி உயரம் 10அடி அகலம் 2. 39அடி உயரம் 15அடி அகலம்
3. 10அடி உயரம் 39அடி அகலம் 4. 39அடி உயரம் 10அடி அகலம்

www.lkedu.lk

10. உக்கலடையாத பொருட்களில் ஒன்று,

1. கடதாசி 2. பொலித்தீன் 3. ஆடைகள் 4. இலைகள்

பின்வரும் கூற்றுக்கள் சரியாயின் (✓) எனவும் பிழையாயின் (✗) எனவும் அடையாளம் இடுக.

11. ஒவ்வொருவரும் ஒருவரை ஒருவர் மதிக்க வேண்டும் ( )
12. பொருத்தமற்ற உடை அணிவதை நாம் தவிர்க்க வேண்டும் ( )
13. பௌதீகவளங்கள் இரண்டு முக்கிய பிரிவுகளைக் கொண்டுள்ளது. ( )
14. எமது நாட்டில் இருபத்தைந்து நிர்வாக மாவட்டங்கள் உள்ளன. ( )
15. தவறான புரிதல் மோதலுக்கு வழிவகுக்கும் ( )

கீழே கொடுக்கப்பட்டவற்றிலிருந்து பொருத்தமான சொற்களைத் தெரிவு செய்து இடைவெளியை நிரப்புக.

16. மனிதனின் தலையீடின்றி இயற்கையாகவே உருவான சூழல் ..... ஆகும்.
17. ..... பிரதேசங்களில் வெப்பமான காலநிலை நிலவுகிறது.
18. சனத்தொகை செறிவு குறைவாக இருப்பினும் கூட, நகரமயமாக்கலுக்கு உட்பட்ட பிரதேசம் ..... ஆகும்.
19. சட்டதிட்டங்களை நடைமுறைப்படுத்தி பொதுமக்களுக்குப் பாதுகாப்பை வழங்கும் அரச அலுவலர்..... ஆவார்.
20. ..... இலங்கையின் இலவசக் கல்வியின் முன்னோடியாவார்.

(பொலிஸ்/ C.W.W. கன்னங்கரா/ நகரசபை/ பௌதீக சூழல் / யாழ்ப்பாணம்/ மன்னார்)

(20x2 = 40 புள்ளிகள்)

பகுதி -II

முதலாம் வினா கட்டாயமானது. ஏனையவற்றில் நான்கு வினாக்களைத் தெரிவு செய்து மொத்தமாக ஐந்து வினாக்களுக்கு விடை தருக

01. பின்வரும் சுயவிபரக்கோவையைப் பூர்த்தி செய்யவும்.

1. முதலெழுத்துடன் பெயர் :- .....
2. பிறந்த திகதி :- .....
3. இவ்வருடம் தை 1ம் திகதி உமது வயது,

   ஆண்டு ..... மாதம் ..... திகதி .....

4. தனிப்பட்ட முகவரி :- .....
5. அவசரகாலங்களில் தொடர்பு கொள்ள வேண்டிய நபரின் பெயர் :- .....
6. அவரது தொலைபேசி இலக்கம் :- .....
7. உமது பாடசாலையின் பெயர் :- .....
8. விலாசம் :- .....

www.ikedu.lk

9. தொலைபேசி இலக்கம் :- .....

10. உமது இல்லத்தின் பெயர் :- .....

11 ..... 12. .....

திகதி ஒப்பம்

(12x1=12**புள்ளிகள்**)

02.

1. மரியாதைமிக்க உரையாடலின் பண்புகள் மூன்று எழுதுக.
2. மொழியைக் கவனமாகவும் சரியாகவும் பயன்படுத்த வேண்டியுள்ள சந்தர்ப்பங்கள் நான்கு எழுதுக
3. கல்வி கற்பதனால் கிடைக்கும் பயன்கள் ஐந்து தருக.

(3+4+5=12 புள்ளிகள்)

03.

1. உங்களிடம் காணப்படும் உயர்ந்த பண்புகள் மூன்று குறிப்பிடுக.
2. C.W.W கன்னங்கராவினால் வெளிப்படுத்தப்பட்ட திறமைகள் நான்கு தருக?.
3. ஒரு நபரிடம் காணப்படும் பலவீனமான பண்புகள் ஐந்து குறிப்பிடுக.

(3+4+5=12 புள்ளிகள்)

04.

1. பாடசாலைக்கொடி ஏற்றப்படும் சந்தர்ப்பங்கள் மூன்று எழுதுக.
2. பாடசாலைச்சின்னம் பயன்படுத்தப்படும் சந்தர்ப்பங்கள் நான்கு குறிப்பிடுக.
3. உமது பாடசாலையினை அடையாளப்படுத்தும் சின்னங்கள் ஐந்து குறிப்பிடுக.

(3+4+5=12 புள்ளிகள்)

05.

1. நீர் மாசடைதலை எவ்வாறு தடுக்கலாம் என்பதற்கு மூன்று உதாரணங்கள் தருக.
2. நீர் மாசடைவதற்கான காரணங்கள் நான்கு எழுதுக.
3. உமது பாடசாலையிலுள்ள பொதுச்சொத்துக்கள் ஐந்து எழுதுக.

(3+4+5=12 புள்ளிகள்)

06.

1. கனியவளங்கள் மூன்று குறிப்பிடுக.
2. இலங்கையில் உள்ள வாவிகள் நான்கு எழுதுக.
3. உள்ளூர் உற்பத்திகள் ஐந்து எழுதுக.

(3+4+5=12 புள்ளிகள்)

07.

1. உள்ளூராட்சி நிறுவனங்கள் மூன்று குறிப்பிடுக.
2. இலங்கையில் உள்ள இனங்கள் நான்கு தருக.
3. பிரதேசத்தில் காணப்படும் சமூக நிறுவனங்கள் ஐந்து தருக.

(3+4+5=12 புள்ளிகள்)

www.lkedu.lk

மாகாணக் கல்வித் திணைக்களம்
வடக்கு மாகாணம்
Provincial Department of Education, Northern Province

மூன்றாம் தவணைப் பரீட்சை – 2022 – (2023)

தரம் - 06	புவியியல் – I,II	நேரம்: 2.00 மணித்தியாலங்கள்

பெயர் / சுட்டெண் .....

பகுதி - I

- **எல்லா வினாக்களுக்கும் விடை எழுதுக.**
- **மிகப் பொருத்தமான விடையின் கீழ் கோடிடுக.**

01. இலங்கையின் பண்டைய நீரியல் நாகரிகத்தின் மையமாக அமைந்துள்ள மாவட்டம்,

1. காலி 2. யாழ்ப்பாணம் 3. கொழும்பு 4. அனுராதபுரம்

02. மனித வளங்களில் ஒன்று,

1. நீர்வீழ்ச்சி 2. பூங்கா 3. மலை 4. தாழ்நிலம்

03. தாவரங்களின் வளர்ச்சிக்குத் தேவையான வாயு எது?

1. நைதரசன் 2. மீதேன் 3. ஓசோன் 4. ஆகன்

04. சிறிய அளவிலான குடிசைக் கைத்தொழில்களுக்கான எடுத்துக்காட்டுகள்

1. பிளாஸ்ரிக், பொலியெஸ்ரர் 2. பிளாஸ்ரிக், கயிறுதிரித்தல்

3. பொலியெஸ்ரர், கயிறு திரித்தல் 4. கயிறு திரித்தல், ஆடை தைத்தல்

05. உலகின் மிகப்பெரிய தீவாக இருப்பது,

1. கிறீன்லாந்து 2. கியூபா 3. இலங்கை 4. சிசிலி

06. இலங்கையின் பிரதான வர்த்தகமையம் மற்றும் முக்கிய நிர்வாக நகரத்தின் சரியான ஒழுங்கு,

1. கொழும்பு, ஸ்ரீ ஜெயவர்த்தனபுரகோட்டை 2. காலி, கொழும்பு

3. ஸ்ரீ ஜெயவர்த்தனபுரகோட்டை, காலி 4. ஸ்ரீ ஜெயவர்த்தனபுரகோட்டை, கொழும்பு

07. அமில மழை மூலம் தீங்கு விளைவிக்கும் விளைவுகளில் ஒன்று,

1. ஆஸ்துமா 2. நீர்மாசடைதல் 3. இருமல் 4. நுரையீரல் புற்றுநோய்

08. சிங்கள மற்றும் தமிழ் புத்தாண்டு காலங்களில் நமக்கு மிகவும் பழக்கப்பட்ட ஒலி எழும்பும் பறவை எது?

1. காகம் 2. கிளி 3. செண்பகம் 4. ஆசியக்குயில்

09. சக்தியின் பயன்பாட்டிற்கு மாற்றீடாகப் பயன்படுத்தப்படுவது,

1. மின்சாரம் 2. குளிர்சாதனப்பெட்டி 3. உயிரியல் வாயு 4. வாயு அடுப்பு

www.lkedu.lk

10. மகரந்தச் சேர்க்கைக்கு உதவும் பூச்சிகள்.

1. வண்ணாத்துப்பூச்சி, தேனீ
2. தேனீ, வௌவால்
3. வண்ணாத்துப்பூச்சி, ஆந்தை
4. தேனீ, எலி

➢ **தரப்பட்டுள்ள வாக்கியங்கள் சரியாயின் (✓) எனவும் பிழையாயின் (x) எனவும் அடைப்புக்குறிக்குள் அடையாளமிடுக.**

11. இலங்கையில் உள்ள ஒவ்வொரு கிராம உத்தியோகத்தர் பிரிவுக்கும் பெயரும் இலக்கமும் உண்டு. ( )
12. காற்றுவிசைமானி மழைவீழ்ச்சியை அளக்கப் பயன்படுத்தப்படுகின்றது. ( )
13. இலங்கையிலுள்ள பாடசாலைகள் கிராமம், நகரம், மலை மற்றும் கரையோரம் போன்ற பல்வேறுபட்ட சூழலில் அமைந்திருக்கின்றது. ( )
14. திருக்கோணேஸ்வரம் காலி துறைமுகத்திற்கு அருகில் அமைந்துள்ளது ( )
15. பல கிராமங்கள் ஒன்றிணைவதன் மூலம் கிராம உத்தியோகத்தர் பிரிவு உருவாக்கப்படுகின்றது. ( )

➢ **அடைப்புக்குறிக்குள் தரப்பட்டுள்ள சொற்களில் சரியான சொற்களைத் தெரிவு செய்து இடைவெளியைப் பூர்த்தி செய்க.**

16. இலங்கை இந்தியாவிலிருந்து ..... மூலம் பிரிக்கப்பட்டுள்ளது.
17. ..... பயன்படுத்துவது சக்தியை சேமிப்பதற்கான மற்றுமொரு வழியாகும்.
18. சமையலறை மற்றும் தோட்டக் கழிவுகளிலிருந்து ..... தயாரிக்கலாம்.
19. ஏரி, அணைக்கட்டு, ஆறு மற்றும் கடல் ஆகியவற்றிற்கு அருகில் வாழும் பெரும்பாலான மக்களின் முக்கிய தொழிலாக ..... இருக்கின்றது.
20. ஓர் குறித்த பகுதியில் அதிகளவான சூரியவெப்பம் மற்றும் வெப்பநிலையினால் ..... தன்மை ஏற்படுகின்றது.

(உரம் /பாக்குநீரிணை / கச்சிதமான ஒளியுள்ள மின்குமிழ் / வரட்சியான / மீன்பிடி)

(20x2 =40 புள்ளிகள்)

www.lkedu.lk

பகுதி -II

முதலாம் வினா கட்டாயமானது. ஏனைய வினாக்களில் நான்கு வினாக்களைத் தெரிவு செய்து மொத்தமாக ஐந்து வினாக்களுக்கு விடை தருக.

01. a. இலங்கை புறஉருவப்படத்தில் குறிக்கப்பட்ட ஆங்கில எழுத்துக்களுக்குப் பொருத்தமான இடங்களின் எழுத்துக்களை அடைப்புக்குறிக்குள் எழுதுக.

1. யாழ்ப்பாணம் (.....)
2. வவுனியா (.....)
3. புத்தளம் (.....)
4. இரத்தினபுரி (.....)
5. மொரட்டுவ (.....)
6. பொலன்னறுவை (.....)

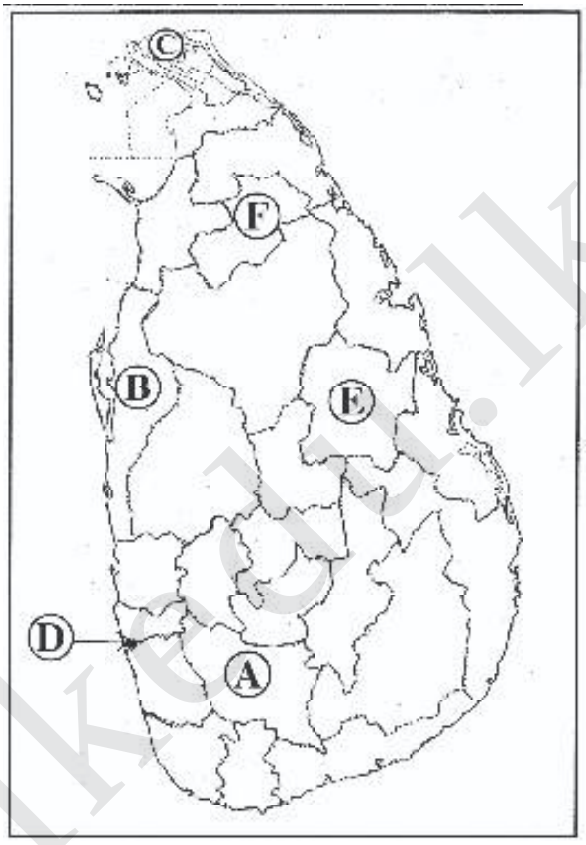

(06x1= 06 புள்ளிகள்)

b. உலகப் புறஉருவப்படத்தில் குறிக்கப்பட்ட ஆங்கில எழுத்துக்களுக்குப் பொருத்தமான இடங்களின் எழுத்துக்களை அடைப்புக்குறிக்குள் எழுதுக.

1. கிறீன்லாந்து (.....)
2. அவுஸ்திரேலியா (.....)
3. இந்து சமுத்திரம் (.....)
4. இந்தியா (.....)
5. ஆபிரிக்கா (.....)
6. மடகஸ்கார் (.....)

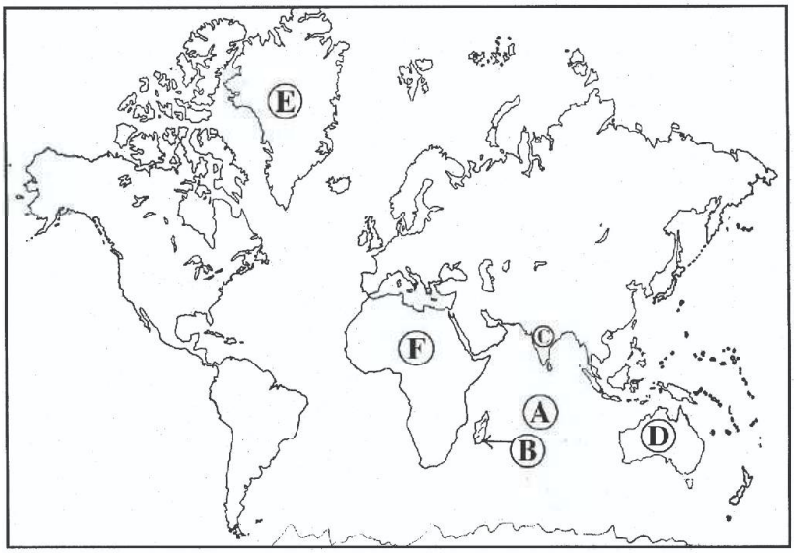

(06x1= 06 புள்ளிகள்)

www.ikeda.lk

2. 1. மின்சாரத்தின் தேவை அதிகரித்து வருவதற்கான காரணங்கள் மூன்று எழுதுக.
   2. நீர் மாசடையும் வழிகள் நான்கு எழுதுக.
   3. உமது தேவையைப் பெற்றுக் கொள்ள நீரைப் பயன்படுத்தும் வழிகள் ஐந்து குறிப்பிடுக.

(3+4+5=12 புள்ளிகள்)

3. 1. குளிர்ச்சியான மென்காந்தை உணரக்கூடிய இடங்கள் மூன்று எழுதுக.
   2. வானிலை தகவல்களை அறிய வேண்டியவர்கள் நால்வரைத் தருக.
   3. வானிலை மூலகங்கள் ஐந்து எழுதுக.

(3+4+5=12 புள்ளிகள்)

4. 1. இடம்பெயர் பறவைகள் மூன்று எழுதுக.
   2. எமது சூழலில் விலங்குகள் எதிர்கொள்ளும் சவால்கள் நான்கு எழுதுக.
   3. தாவரங்களிலிருந்து பெற்றுக்கொள்ளும் பயன்கள் ஐந்து எழுதுக.

(3+4+5=12 புள்ளிகள்)

5. 1. பின்வரும் தொழிற்சாலைகளிற்குரிய பிரபல்யமான இடங்களைக் குறிப்பிடவும்.
      a. பாய் :-
      b. முகமூடி :-
      c. பிரம்பு உற்பத்திகள் :-

   2. அரசாங்கத்தினால் கட்டுப்பாட்டு விலையில் மருத்துவம் மற்றும் போக்குவரத்திற்காக வழங்கப்படும் சலுகைகளைத் தருக.
      a. போக்குவரத்து
      b. மருத்துவம்

   3. பொதுச் சேவைகள் ஐந்து எழுதுக.

(3+4+5=12 புள்ளிகள்)

6. 1. உங்கள் வீட்டுக்கு அருகில் உள்ள இயற்கைச் சூழலின் அடிப்படை அம்சங்கள் மூன்று தருக
   2. முறையற்ற நிலப்பயன்பாட்டினால் ஏற்படும் விளைவுகள் நான்கு எழுதுக.
   3. நிலத்தின் பயன்பாடுகள் ஐந்து தருக.

(3+4+5=12 புள்ளிகள்)

7. 1. மழைவீழ்ச்சி செயன்முறையில் உள்ளடங்கும் செயற்பாடுகள் மூன்று தருக.
   2. பிரதான நான்கு திசைகளையும் குறிப்பிடுக.
   3. வானிலை பற்றிய தகவல்களை அறிந்து கொள்வதினால் கிடைக்கும் பயன்கள் ஐந்து தருக.

(3+4+5=12 புள்ளிகள்)

www.lkedu.lk

மாகாணக் கல்வித் திணைக்களம்
வடக்கு மாகாணம்
Provincial Department of Education, Northern Province

மூன்றாம் தவணைப் பரீட்சை – 2022 – (2023)

தரம் - 06	செயன்முறை தொழில்நுட்ப திறன்–I,II	நேரம்: 2.00 மணித்தியாலங்கள்

பெயர் / சுட்டெண் .....

பகுதி-I

- **பொருத்தமான விடையின் கீழ் கோடிடுக.**

01. எமது சுற்றுப்புற சூழலைக் கவர்ச்சிகரமாகப் பேணுவதன் மூலம் பெறக்கூடிய நன்மைகளில் ஒன்று
1. கவலை 2. கோபம் 3. மகிழ்ச்சி 4. வெறுப்பு

02. மூலிகைப் பயிர் தொகுதிக்குள் உள்ளடங்குபவை
1. வெண்டி, கோவா, கத்தரி 2. பாற்கிழங்கு, சேம்பு, கொடிக்கிழங்கு
3. பாவட்டை, கற்றாளை, திப்பிலி 4. மிளகு, இஞ்சி, மிளகாய்

03. தொங்கும் தாவரங்களுக்கு உதாரணம்,
1. கொடிரோசா, மணிவாழை 2. சைபிரஸ், இக்லோரா
3. மொண்டரிப்சூ, ஸ்பைடர்பிளாண்ட் 4. இழிசாந்திமம், ஜெர்பரா

04. பின்வருவனவற்றுள் சுவையூட்டி பயிராக அமைவது,
1. மிளகு 2. பாவட்டை 3. கொடிக்கிழங்கு 4. குரக்கன்

05. அரிசிமா, பாண் போன்றவற்றில் அடங்கும் பிரதான போசணைக் கூறு,
1. புரதம் 2. காபோவைதரேற் 3. கனியுப்பு 4. விற்றமின்

06. சமையலறைக்கான தளத்திட்டம் ஒன்றில்  எனும் குறியீடு குறிப்பது
1. சமையலறை சுவர் 2. சமையலறை யன்னல்
3. உணவு சமைக்கும் அலகு 4. உணவுக் களஞ்சியம்

07. கையால் துளையிடும் கருவியாக அமைவது
1. சுட்டியல் 2. குறடு 3. அரம் 4. துறப்பணம்

08. அருகில் தரப்பட்டுள்ள படத்தில் காட்டப்பட்டுள்ள பொருள் எது?
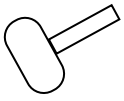
1. கவர் சுத்தியல் 2. துறப்பணம்
3. சீவுளி 4. தட்டுப்பொல்லு

09. ஸ்டென்சில் முறை அச்சு பதித்தல் பாவிக்கப்படும் சந்தர்ப்பம் பின்வருவனவற்றுள் எது?
1. உடை 2. போஸ்டர் 3. பெனர் 4. மேற்கூறிய யாவும்

10. கணினியில் வரைந்த படம் ஒன்றை சேமிப்பதற்கு பயன்படுத்தப்படும் கட்டளை,
1. New 2. Open 3. Save 4. Cut (10×2=20புள்ளி)

www.lkedu.lk

➢ **பொருத்தமான சொல்லை வைத்து இடைவெளி நிரப்புக.**

(பொலித்தீன், வெண்டி, மிளகு, சீவுளி, ஈஸ்ட், பற்றீரியா)

11. சுவைச் சரக்குகளில் ஒன்று ..... ஆகும்.

12. பலகைகளை மட்டப்படுத்துவதற்கு ..... பாவிக்கப்படுகிறது.

13. சிதைவடையாத கழிவுப் பொருள் ..... ஆகும்.

14. நேரடியாக பாத்திகளில் வித்துகளாக நடக்கூடிய பயிர் வகைகளுள் ஒன்று ..... ஆகும்.

15. நொதிக்கச் செய்யும் பொருள் ..... ஆகும்.

(5×1=5 புள்ளிகள்)

➢ **சரியாயின் சரி எனவும் பிழையாயின் பிழை எனவும் அடையாளம் இடுக.**

16. மண்புழு மண்ணை தூர்வையாக்கும். ( )

17. மீன் தகரத்தில் அடைத்து பொதி செய்யும் உணவாகும். ( )

18. அரச வைத்தியசாலை இலாபநோக்க நிறுவனமாகும். ( )

19. சுயதொழில் ஒன்றைச் செய்வதால் மனிதனுக்கு சுய திருப்தி ஏற்படும். ( )

20. முறைசார்ந்த வடிவங்களுள் இலை வடிவம் ஒன்றாகும். ( )

(5×1=5 புள்ளிகள்)

www.lkedu.lk

பகுதி-II

- **விரும்பிய நான்கு வினாக்களுக்கு விடை தருக.**
- **(பட விளக்கம் எதிர்பார்க்கப்படும்)**

01. 1) வீட்டுத் தோட்டத்தில் தாவரங்களை வளர்ப்பதன் மூலம் கிடைக்கும் பண்புகள் 2தருக.
    2) கீரை வகைகள் 3 தருக?
    3) வெளிவரும் நாற்றம் காரணமாக பூச்சிகளை விரட்டும் தாவரங்கள் 3தருக.
    4) உயிரற்ற மூடுபடைகள் எவை? (2+3+3+2=10 புள்ளிகள்)

02. 1) சுட்டித் துண்டு ஒன்றில் உள்ளடக்க வேண்டிய அம்சங்கள் யாவை?
    2) போசணைக் கூறுகள் யாவை?
    3) நாம் உணவை உட்கொள்ள வேண்டிய அவசியம் யாது? (3+3+4=10 புள்ளிகள்)

03) 1) இரு பரிமாணத் தோற்றம் என்பதனால் நீர் விளங்கிக் கொள்வது யாது?
    2) முப்பரிமாண தோற்றம் உடைய பொருட்கள் 3தருக?
    3) கணினி திரையில் Home மெனுவில் உள்ள பின்வரும்
    Copy - தொழிற்பாடு யாது?
    Cut - தொழிற்பாடு யாது?

04) 1) குண்டூசி தாங்கி செய்வதற்குத் தேவையான பொருட்கள் யாவை?
    2) குண்டூசி தாங்கியின் மாதிரிப் படத்தை வரைந்து அளவுகள், உபகரணப் பொருட்களை குறித்துக் காட்டுக.
    3) படத்தை வரைந்து காட்டுக.

    அ) கைவாள்
    ஆ) கவர் சுத்தியல்
    இ) கைக்குறடு
    ஈ) மரவேலை உளி

    (2+4+4=10 புள்ளிகள்)

05) 1) அடிப்படைத் தேவைகள் யாவை?
    2) தேவைகளிற்கும் விருப்பங்களிற்கும் இடையிலான வேறுபாடுகள் 2 தருக.
    3) சேவைகள் நான்கு தருக. (2+4+4=10 புள்ளிகள்)

www.lkedu.lk

மாகாணக் கல்வித் திணைக்களம்
வடக்கு மாகாணம்
Provincial Department of Education, Northern Province

மூன்றாம் தவணைப் பரீட்சை – 2022 – (2023)

தரம் - 06	சைவநெறி – I,II	நேரம்: 2.00 மணித்தியாலங்கள்

பெயர் / சுட்டெண் .....

பகுதி - I

➢ **எல்லா வினாக்களுக்கும் விடை அளிக்க.**

01. சரியான விடையின் கீழ்க் கோடிடுக.

01. "பிரணவப் பொருளாம் பெருந்தகை....." என்று "வெற்றிவேட்கை" எனும் நூலில் போற்றப்படுபவர்,
1. சிவபெருமான் 3. முருகப்பெருமான்
2. விநாயகப்பெருமான் 4. உமாதேவியார்

02. "அட்சரஅப்பியாசஆரம்பம்" என்று அழைக்கப்படும் வாழ்வியல் சடங்கு,
1. காதுகுத்தல் 2. சோறூட்டல்
3. ஏடு தொடக்குதல் 4. பெயர் சூட்டுதல்

03. தேவாரப்பாடல்கள் கண்டெடுக்கப்பட்டதிருத்தலம்,
1. திருநாரையூர் பொல்லாப் பிள்ளையார் 2. திருவீரட்டானம்
3. திருக்கோணேச்சரம் 4. சிதம்பரம்

04. பஞ்சபுராணம் ஓதமுன்பும் ஓதியபின்பும் சொல்லவேண்டியது,
1. திருச்சிற்றம்பலம் 2. சிவசிவ
2. நமசிவாய 4. இறைவாபோற்றி

05. "சீருந்திருவும் பொலியச் ....." எனத் தொடங்கும் பாடல்,
1. திருவாசகம் 2. திருவிசைப்பா
2. திருப்பல்லாண்டு 4. திருப்புராணம்

(5x2 =10 புள்ளிகள்)

02. தொடர்புபடுத்துக.

1. முழுமுதற் கடவுள் சிவன்	இரண்டாம் பாடல்
2. சிவசின்னங்கள்	சைவசமயத்தவர்
3. ஆறுமுகநாவலர்	கைவிசேடம்
4. கிராமியத் தெய்வம்	விபூதி, உருத்திராக்கம்
5. சித்திரைப்புத்தாண்டு	ஐயனார்

(5x2 =10 புள்ளிகள்)

www.lkedu.lk

03. சரியாயின் (✓) எனவும் பிழையாயின் (×) எனவும் அடைப்புக் குறியினுள் அடையாளமிடுக.

1. ஆலயம் சென்றுவழிபடுவதால் மனம் ஒருநிலைப்படும். ( )
2. சிவனடியார்களுக்கு அமுதூட்டும் பணியில் இளையான்குடிமாறநாயனார் ஈடுபட்டார். ( )
3. திருமுறைகள் பதினெட்டாகும். ( )
4. இலங்கையில் சீதையம்மன் ஆலயம் திருகோணமலையில் உள்ளது. ( )
5. ஞானப்பிரகாசமுனிவர் பசுவதைக்கு அஞ்சி தமிழகம் சென்றார். ( )

(5x2 =10 புள்ளிகள்)

04. பொருத்தமான சொற்களைத் தெரிவு செய்க.

(நிறைகுடம் /சண்டேஸ்வரர் / கிழக்கு / திருமுறைகள் / மாவிட்டபுரம்)

1. ஆலய வழிபாட்டில் இறுதியாக வழிபடும் தெய்வம் ..... ஆவார்.
2. திருஞானசம்பந்தரது தேவாரப் பாடல்கள் முதல் மூன்று ..... ஆகத் தொகுக்கப்பட்டுள்ளன.
3. விசேடதினங்களின் போது சைவர்கள் ..... வைப்பர்.
4 குதிரை முகம் நீங்கியதால் ..... என்ற பெயர் ஏற்பட்டது.
5. திருக்கோணேச்சரம் ..... மாகாணத்தில் அமைந்துள்ளது.

(5×2 =10 புள்ளிகள்)

www.lkedu.lk

பகுதி - II

➢ **முதலாம் வினா உட்பட எல்லாமாக ஐந்து வினாக்களுக்கு விடை தருக.**

01. 1) பின்வரும் திருமுறைப் பாடல்களில் இரண்டினைப் பிழையற வரிக்கிரமமாக எழுதுக.
2) அதனைப் பாடியவர், பண் என்பவற்றைக் குறிப்பிடுக.
அ) "இடரினும் தளரினும் ..... "
ஆ) "ஓசையொலியெலாம் ....."
இ) "பித்தாப்பிறைசூடி ..... "
ஈ) "சீருந் திருவும் பொலிய....."

(6×2 =12 புள்ளிகள்)

02. 'விழுமியங்கள் வாழ்க்கைக்கு அவசியமானவை'

1. விழுமியங்கள் என்றால் என்ன?
2. விழுமியப் பண்புகள் இரண்டினை குறிப்பிடுக.
3. விழுமியப் பண்புகளைக் கடைப்பிடிப்பதன் மூலம் நாம் பெறும் பயன்கள் எவை?

(4+4+4) =12 புள்ளிகள்

03. 'தெய்வத்தன்மை பொருந்தியவை திருமுறைகளாகும்'

1. திருமுறைகளைத் தொகுத்தவர் பெயர் தருக.
2. திருமுறைப்பாடல்கள் பாடப்படும் சந்தர்ப்பங்கள் இரண்டினை குறிப்பிடுக.
3. சுந்தரமூர்த்தி நாயனார் ஆற்றிய அற்புதங்கள் நான்கு தருக.

(4+ 4 +4) =12 புள்ளிகள்)

04. 'இறைவனை மெய்யன்போடு வழிபடத்தூண்டுபவை விரதங்கள் '

1. விரதம் என்றால் என்ன?
2. முருகனுக்குரிய விரதங்கள் இரண்டினை தருக.
3. விரதங்கள் அனுட்டிக்கும் காலத்தில் பின்பற்றவேண்டிய நியதிகளைக் குறிப்பிடுக.

(4+ 4+4) =12 புள்ளிகள்

05. 'மெய்கண்ட சாஸ்திரங்கள் பதினான்கு ஆகும் '

1. பசுவிற்கு வழங்கப்படும் வேறு பெயர்கள் இரண்டு தருக.
2. பதி என்பதன் பொருள் யாது?
3. பதியின் இயல்புகள் எவை எனக் குறிப்பிடுக.

(4+ 4 +4) =12 புள்ளிகள்

06. 'உலகின் தொன்மையான வழிபாடு கிராமிய வழிபாடு ஆகும் '

1. கிராமிய வழிபாடு வேறு எவ்வாறு அழைக்கப்படும்?
2. கிராமியத் தெய்வங்கள் இரண்டு தருக.
3. நீர் அறிந்த கிராமிய வழிபாட்டு முறைபற்றி சுருக்கமாகக் குறிப்பிடுக.

(4+ 4 +4) =12 புள்ளிகள்

07. பின்வரும் தலைப்புக்களில் இரண்டினைத் தெரிவுசெய்து சிறுகுறிப்பு எழுதுக.

1. வாழ்வியற்சடங்குகள்
2. பண்டிகைகள்
3. ஞானப்பிரகாசமுனிவர்
4. திருக்கோணேச்சரம்
5. பஞ்சபுராணம்.

(6×2 =12 புள்ளிகள்)

www.lkedu.lk

மாகாணக் கல்வித் திணைக்களம்
வடக்கு மாகாணம்
Provincial Department of Education, Northern Province

மூன்றாம் தவணைப் பரீட்சை – 2022 – (2023)

தரம் - 06	கத்தோலிக்கத் திருமறை	நேரம்: 2.00 மணித்தியாலங்கள்

பெயர் / சுட்டெண் .....

பகுதி– I

❖ **பொருத்தமான விடையின் கீழ்க் கோடிடுக.**

01. கிறிஸ்தவர்களின் பரிசுத்தமான நூல் எது?
1) பரிசுத்த ஏடு 2) திருவிவிலியம் 3) குர்ஆன் 4) பகவத்கீதை

02. படைப்பின் ஒழுங்குமுறையில் நான்காம் நாளில் படைக்கப்பட்டது.
1) வானமும் நீரும் 2) நிலமும் மரம் செடிகளும்
3) சூரியன் சந்திரன் விண்மீன் 4) மனிதன்

03. இஸ்ரேயல் மக்களைத் துன்புறுத்திய அரசன்,
1) ஏரோது 2) பிலாத்து 3) பார்வோன் 4) சவுல்

04. இடைவிடாமல் செபிக்கவேண்டும் என்பதற்கு இயேசு கூறிய உவமை,
2) பரிசேயனும் வரிதண்டுபவனும் 2) நள்ளிரவில் அப்பம் கேட்ட நண்பன்
3) ஊதாரிமைந்தன் 4) விதைப்பவன் உவமை

05. புகுமுக அருளடையாளம் அல்லாதது எது?
1) திருமுழுக்கு 2) நற்கருணை 3) உறுதிப்பூசுதல் 4) ஒப்புரவு

06. டொமினிக் குஸ்மான் எந்த நாட்டைச் சேர்ந்தவர்,
1) ஸ்பானியா 2) கார்மேல் மலை 3) சீனாய் மலை 4) ஒலிவமலை

07. இயேசுவுக்கு விருத்தசேதனம் செய்யப்பட்டது?
1) மூன்றாம் நாள் 2) எட்டாம் நாள் 3) நாற்பதாம் நாள் 4) ஐம்பதாம் நாள்

08. நற்கருணை புதுமை நடைபெற்ற காலம்,
1) கி.பி.900 2) கி.பி.800 3) கி.பி.600 4) கி.பி.700

09. புனித ஸ்தேவான் கொல்லப்பட்ட விதம்,
1) சிலுவையில் அறைந்து 2) சிரச்சேதம் செய்து
3) தலைகீழாக தொங்கவிட்டு 4) கல்லால் எறிந்து

10. ஆவணி 15ம் திகதி மரியன்னைக்குக் கொண்டாடப்படும் விழா,
1) மரியன்னையின் விண்ணேற்பு விழா 2) மரியன்னையின் பிறப்பு விழா
3) அமல உற்பவ விழா 4) காணிக்கை மாதா விழா

(2X10=20 புள்ளிகள்)

www.ikedu.lk

02. சரியாயின் (சரி) எனவும் பிழையாயின் (பிழை) எனவும் எழுதுக.

1. நோவாவும் வெள்ளப்பெருக்கும் தொடக்கநூலில் கூறப்பட்டது. ( )
2. புனித லூக்கா இயேசுவின் திருத்தூதர். ( )
3. ஞாயிறு தினத்தில் இயேசுவின் உயிர்ப்பை நினைவு கூருகின்றோம். ( )
4. இயேசுவின் பிறப்பு முதல் முதல் ஞானிகளுக்கு அறிவிக்கப்பட்டது. ( )
5. திருவிவிலியம் இறைஏவுதலால் எழுதப்பட்ட நூலாகும். ( )
6. யோவான் நற்செய்தியின் அடையாளம் கழுகு ஆகும். ( )
7. இயேசு குருத்துவத்தை ஏற்படுத்தியது பெரிய வியாழன். ( )
8. ஆபிரகாம், ஈசாக்கு, யாக்கோபு குலமுதுவர்கள் ஆவர். ( )
9. சிலை வழிபாடு இரண்டாம் கட்டளைக்கு எதிரான பாவம். ( )
10. அருளடையாளங்கள் எமக்கு அவசியமில்லை. ( )

(2X10=20 புள்ளிகள்)

03. பொருத்தமான சொற்களை வைத்து இடைவெளி நிரப்புக.

(இஸ்ராயேல் / உயிர்மூச்சை / கதிரவனை / உயிர்ப்பை / பகைவரையும்)

1. கடவுள் நல்லோர் மேலும் தீயோர் மேலும் தம் ..... உதித்தெழச் செய்கிறார்.
2. பாவத்தில் விழுந்த மனிதனை மீட்க இறைவன் ..... இனத்தைத் தெரிந்தெடுத்தார்.
3. நாம் எம்மைப்போல் ..... அன்பு செய்ய வேண்டும்.
4. கடவுள் மனிதனை உருவாக்கி அவன் நாசிகளில் ..... ஊதினார்.
5. பாஸ்கா கால மூவேளைச் செபத்தில் இயேசுவின் ..... நினைவு கூருகின்றோம்.

(5X2=10 புள்ளிகள்)

www.lkedu.lk

பகுதி-II

➢ **விரும்பிய ஐந்து வினாக்களுக்கு விடை தருக.**

1. அ. ஐந்நூலில் அடங்கும் நூல்கள் இரண்டு தருக.
   ஆ. புதிய ஏற்பாட்டு நூல்கள் மூன்று தருக.
   இ. திருவிவிலியத்தை புனிதமாகப்பேண நீர் மேற்கொள்ளும் செயல்முறைகள் ஐந்து தருக
   (2+3+5 =10 புள்ளிகள்)

2. அ. பணிவாழ்வின் அருளடையாளங்கள் இரண்டு தருக.
   ஆ. குருத்துவத்தின் நிலைகள் மூன்றையும் தருக?
   இ. குருக்களின் பணிகள் ஐந்து தருக? (2+3+5 =10 புள்ளிகள்)

3. அ. திருமுழுக்கின்போது பயன்படுத்தும் பொருட்கள் இரண்டு தருக.
   ஆ. திருமுழுக்கினால் பெறும் அருள்கள் மூன்று தருக.
   இ. நோயிற்பூசுதல் அருளடையாளத்தைப் பெற்றுக்கொடுக்கும் இடத்தை நீர் எவ்வாறு ஆயத்தம் செய்வீர். (2+3+5 =10 புள்ளிகள்)

4. அ. மரியன்னையை அழைக்கும் வேறு பெயர்கள் இரண்டு தருக.
   ஆ. இலங்கையில் கத்தோலிக்கருக்குரிய கடன்திருநாட்கள் மூன்று தருக.
   இ. ஓய்வு நாளில் நீர் செய்யக்கூடிய செயல்கள் ஐந்து தருக. (2+3+5 =10 புள்ளிகள்)

5. அ. செபத்தின் பண்புகள் இரண்டு தருக.
   ஆ. பொதுச் செபங்கள் மூன்று தருக.
   இ. நீங்கள் செபிக்கும் சந்தர்ப்பங்கள் ஐந்து தருக. (2+3+5 =10 புள்ளிகள்)

6. பின்வருவனவற்றுள் இரண்டிற்கு சிறுகுறிப்பு எழுதுக.
   அ. புனித 2ம் அருளப்பர் சின்னப்பர்
   ஆ. படைப்பு
   இ. திருவிவிலியம்
   ஈ. அருளடையாளம்
   (5+5=10 புள்ளிகள்)

www.lkedu.lk

மாகாணக் கல்வித் திணைக்களம்
வடக்கு மாகாணம்
Provincial Department of Education, Northern Province

மூன்றாம் தவணைப் பரீட்சை – 2022 – (2023)

தரம் - 06	கிறிஸ்தவம்	நேரம்: 2.00 மணித்தியாலங்கள்

பெயர் / சுட்டெண் .....

பகுதி -I

01) பொருத்தமான விடையின் கீழ்க் கோடிடுக.

01. உலகப் படைப்பின் வரலாற்றில் கடவுள் உயிருள்ளவற்றைப் படைத்தது,
1) முதலாம் நாளில் 2) மூன்றாம் நாளில் 3) ஐந்தாம் நாளில் 4) ஏழாம் நாளில்

02. கடவுள் எத்தனையாம் நாளினை ஆசீர்வதித்துப் புனிதப்படுத்தினார்?
1) முதலாம் நாளினை 2) ஏழாம் நாளினை 3) நான்காம் நாளினை 4) ஐந்தாம் நாளினை

03. இயேசுவின் பிறப்பின் செய்தியை முதலில் மரியாவுக்கு அறிவித்தவர்,
1) மிக்கேல் தூதர் 2) கபிரியேல் தூதர் 3) பிலாத்து 4) ஏரோது மன்னன்

04. இயேசு 12 வயதில் தாய் மரியாவுடனும் தந்தை யோசேப்புடனும் சென்று காணாமல் போன இடத்தின் பெயர்,
1) யூதேயா 2) சமாரியா 3) எகிப்து 4) எருசலேம்

05. இயேசுவின் சிலுவையைச் சுமப்பதற்கு உதவியவர்,
1) சீரேன் ஊர் சீமொன் 2) பிலிப்பு 3) யூதா 4) சின்னப்பர்

06. எமக்கு நிலை வாழ்வு கிடைத்தது,
1) இயேசுவின் பாடுகளால் 2) இயேசுவின் மரணத்தினால்
3) இயேசுவின் உயிர்ப்பால் 4) இயேசுவின் விண்ணேற்பால்

07. இயேசு எத்தனை வயதில் திருமுழுக்குப் பெற்று பணியை ஆரம்பித்தார்?
1) ஏழு வயதில் 2) 18 வயதில் 3) இருபது வயதில் 4) முப்பது வயதில்

08. இயேசுவின் பணிக்கு வழியை ஆயத்தம் செய்தவர்
1) திருமுழுக்கு யோவான் 2) பிலிப்பு
3) யோசேப்பு 4) இராயப்பர்

09. இயேசு உயிர்த்தெழுந்து எத்தனை நாட்களுக்குப் பின் விண்ணேற்றம் அடைந்தார்?
1) முப்பது 2) நாற்பது 3) ஐம்பது 4) அறுபது

10. எத்தியோப்பிய அரச அலுவலருக்குத் திருமுழுக்குக் கொடுத்தவர்,
1) பிலிப்பு 2) யூதா 3) சின்னப்பர் 4) பர்ணபா

11. கிறிஸ்தவனில் இருக்க வேண்டிய பண்புகளில் ஒன்று,
1) கோபம் 2) சண்டை 3) கீழ்ப்படிவு 4) பொறாமை

12. நல்ல மேய்ப்பனில் காணப்படவேண்டிய குணாதிசயம்,
1) பொறாமை 2) இரக்கம் 3) சுயநலம் 4) பெருமை

www.lkedu.lk

13. கர்த்தர் என் ..... இருக்கிறார்.
1) துணையாக 2) தலைவராக 3) நண்பராக 4) மேய்ப்பராக

14. நாம் காலையும் மாலையும் ..... வேண்டும்.
1) ஜெபிக்க 2) விளையாட 3) படம் பார்க்க 4) நித்திரை செய்ய

15. யேசு வளர்ந்த ஊர் எது?
1) பெத்லகேம் 2) நசரேத்து 3) கானான் 4) எகிப்து

16. கிறிஸ்துவின் நற்செய்திப் பணிக்காக கல்லால் எறியப்பட்டு கொலை செய்யப்பட்டவர்
1) இராயப்பர் 2) சின்னப்பர் 3) ஸ்தேவான் 4) பிலிப்பு

17. இயேசுவுக்கு ஏற்பட்ட சோதனைகளின் எண்ணிக்கை,
1) நான்கு 2) மூன்று 3) இரண்டு 4) ஐந்து

18. யூதர்களின் விழா எனப்படுவது,
1) பாஸ்கா 2) கிறிஸ்துவின் பிறப்பு 3) திருவிழிப்பு 4) விருந்துண்ணல்

19. தந்தை, மகன், தூய ஆவி மூவரும் ஒன்றாக வெளிப்பட்ட சந்தர்ப்பம்,
1) கிறிஸ்துவின் புதுமையில் 2) எருசலேமில்
3) கிறிஸ்துவின் திருமுழுக்கில் 4) கடல் மீது நடந்த பொழுது

20. படைப்பின் சிகரமாக விளங்குவது,
1) சூரியன் 2) இயற்கை 3) நீர் நிலைகள் 4) மனிதன்

(20x2 = 40 புள்ளிகள்)

பகுதி - II

02) பின்வருவனவற்றிற்கு சரி (✓) பிழை (×) அடையாளமிடுக.

1. இயேசுவின் பிறப்பு முதலில் இடையர்களுக்கு அறிவிக்கப்பட்டது. ( )
2. யூதர்களின் முக்கிய விழா பாஸ்கா விழாவாகும். ( )
3. ஈசாக் மந்தை மேய்ப்புத் தொழில் செய்தார். ( )
4. கடவுளுக்கு ஏற்புடையவராக பரிசேயன் வீடு திரும்பினார். ( )
5. திருவிவிலியத்தில் முதல் 7 புத்தகமும் பஞ்சாகமம் ஆகும். ( )
6. கிறிஸ்தவ வாழ்விற்கு செபம் அவசியமாகும். ( )
7. லேவியன் யூதனுக்கு உதவி செய்தான். ( )
8. பார்த்திமேயு நம்பிக்கையினால் பார்வை பெற்றான். ( )
9. இயேசு சிலுவையுடன் மூன்று முறை விழுந்தார். ( )
10. கிறிஸ்தவ பிள்ளையாக வாழ தாழ்மையைக் கடைப்பிடிக்க வேண்டும். ( )

(10x1 10 புள்ளிகள்)

www.lkedu.lk

03) பொருத்தமான சொற்களை வைத்து இடைவெளியை நிரப்புக.

1. கடவுள் தன் உருவில் மனிதரைப் படைத்தார் ..... அவர்களைப் படைத்தார்.
2. "ஆலயத்தை இடித்து ..... கட்டுகிறவனே உன்னை நீயே காப்பாற்று"
3. "எதிர்நோக்கைத் தரும் கடவுள், நம்பிக்கையால் உண்டாகும் ..... உங்களை நிரப்புவாராக"
4. "ஆண்டவரே என்றென்றைக்கும் உள்ளது உமது ..... அது நிலைத்துள்ளது"
5. உன் முழு இதயத்தோடும், முழு உள்ளத்தோடும், முழு ..... உன் கடவுளாகிய ஆண்டவரிடம் அன்பு கூர்வாயாக"

(5x2 = 10 புள்ளிகள்)

❖ **அனைத்து வினாக்களுக்கும் விடை தருக.**

1) இயேசுவின் பிறப்புடன் தொடர்புபட்ட சந்தர்ப்பங்கள் யாவை?
2) யூத சட்டத்தின்படி பன்னிரண்டு வயதை அடைந்த ஆண்களுக்கு கிடைக்கும் பொறுப்புக்கள் எவை?
3) " ஏலி ஏலி லாமா சபத்தானி" என்பதன் பொருள் என்ன?
4) இயேசுவின் திருமுழுக்கு நிகழ்விலிருந்து வெளிப்படும் செய்தி யாது?
5) சமாரியன் யூதனுக்குச் செய்த சேவைகள் யாவை?
6) பார்த்திமேயுவின் நம்பிக்கையிலிருந்து கிறிஸ்தவர்களாகிய எமது வாழ்விற்கு கிடைக்கும் செய்திகள் நான்கு தருக.
7) யூத சமய சட்டப்படி தொழுநோயாளியை எவ்வாறு நோக்கினார்கள்?
8) இறைவனுக்கு முன்பாக வரி தண்டுபவன் எவ்விதம் வேண்டினான்?
9) புதிய ஏற்பாட்டில் காணப்படும் நற்செய்தி நூல்கள் எவை?
10) பத்துக் கட்டளைகளில் கடவுளுக்கும் மனிதனுக்கும் இடையிலான தொடர்பு பற்றி கூறப்படும் கட்டளைகள் எவை?

(10x4 = 40 புள்ளிகள்)

www.lkedu.lk

மாகாணக் கல்வித் திணைக்களம்
வடக்கு மாகாணம்
Provincial Department of Education, Northern Province

மூன்றாம் தவணைப் பரீட்சை – 2022 – (2023)

தரம் - 06	இஸ்லாம் – I, II	நேரம்: 2.00 மணித்தியாலங்கள்

பெயர் / சுட்டெண் .....

பகுதி-I

01. மிகப் பொருத்தமான விடையின் கீழ்க் கோடிடுக.

01. தவ்ஹீதின் எதிர்ப்பதம் யாது?
1.ஈமான் 2.இஸ்லாம் 3.ஷிர்க் 4. குப்ர்

02. அபுல் பசர் என அழைக்கப்படும் நபி,
1. மூஸா(அலை) 2. ஈஸா(அலை) 3.நூஹ்(அலை) 4. ஆதம்(அலை)

03. மனிதன் சுவாசிக்கும் வாயு,
1. காபனீரொட்சைட் 2.ஒட்சிசன் 3.நைதரசன் 4. ஐதரசன்

04. இஹ்லாஸ் என்பதன் கருத்து,
1. உளத்தூய்மை 2.மனிதர்கள் 3.விடியற்காலை 4. வெற்றி

05. வஹி கொண்டுவரும் மலக்கு யார்?
1. மாலிக(அலை) 2. றகீப் (அலை) 3.ஜிப்ரீல் (அலை) 4. நகீர் (அலை)

06. ஜின்கள் எதனால் படைக்கப்பட்டுள்ளனர்?
1. நெருப்பு 2. ஒளி 3. ஒலி 4. களிமண்

07. முஸ்லீம்களின் இரண்டாவது கடமை எது?
1. கலிமா 2. ஹஜ் 3. ஸக்காத் 4. தொழுகை

08. நாவினால் செய்யும் பாவம் அல்லாதது எது?
1.கோள் 2. புறம் 3. அடித்தல் 4. திட்டுதல்

09. நபி(ஸல்) அவர்களுக்கு முதன் முதலாக இறக்கப்பட்ட சூரா எது?
1. சூரா அலக் 2. சூரா பலக் 3. சூரா நாஸ் 4. சூரா கவ்ப்

10. அல் அமீன் என்பதன் பொருள் யாது?
1. உண்மையாளர் 2. நேர்மையாளர் 3. நம்பிக்கையாளர் 4. நட்புக்குரியவர்

11. நுபுவத் என்பதன் பொருள்,
1. ஏகத்துவம் 2. நபித்துவம் 3. வேதம் 4. இறைகட்டளை

12. முதன் முதலில் இஸ்லாத்தை ஏற்ற பெண்மணி யார்?
1. கதீஜா(ரழி) 2. ஆயிஸா (ரழி) 3. ஹப்ஸா(ரழி) 4. சவ்தா(ரழி)

www.lkedu.lk

13. அல்குர்ஆன் எம்மொழியில் அருளப்பட்டது?
1. அரபு 2. சுர்யானி 3. அபரானி 4. யூனானி

14. உழுவின் பர்ளுகள்
1. 4 2. 5 3. 6 4. 7

15. பாத்திமா நாயகி யாரைத் திருமணம் செய்தார்கள்?
1. உமர் (ரழி) 2. உஸ்மான் (ரழி) 3. அம்மார் (ரழி) 4. அலி(ரழி)

16. சல்மான் பாரிஸி(ரலி)எந்த நாட்டைச் சேர்ந்தவர்?
1. மக்கா 2. மதீனா 3. பாரசீகம் 4. சிரியா

17. ஆயிஷா (ரழி)யின் தந்தையின் பெயர் யாது?
1. அபூபக்கர் (ரழி) 2. உமர் (ரழி) 3. அலி(ரழி) 4. உஸ்மான்(ரழி)

18. ஹதீஸ் என்பது,
1. இறைவழி 2. நபிவழி 3. கலீபாக்கள்வழி 4. சஹாபாக்கள் வழி

19. ஆப்றஹா மன்னன் எந்த நாட்டைச் சேர்ந்தவன்?
1. எகிப்து 2. யமன் 3. சிரியா 4. மதீனா

20. பீல் என்பதன் கருத்து
1. குருவி 2. குதிரை 3. யானை 4. பருந்து

(20 புள்ளிகள்)

பகுதி-II

02. சரியாயின் (✓) எனவும் பிழையாயின் (✗) எனவும் அடையாளமிடுக.

1. சுவனத்தின் திறவுகோள் தொழுகையாகும். ( )
2. ஜின்கள் நெருப்பினால் படைக்கப்பட்டுள்ளனர். ( )
3. அல்குர்ஆன் 33 வருட காலமாக இறங்கியது. ( )
4. நபியவர்கள் தியானித்த குகை தவ்ர் குகையாகும். ( )
5. யத்ரிப் என்பது மக்காவைக் குறிக்கும். ( )
6. இஸ்லாத்தின் சட்ட மூலாதாரங்கள் 2 ஆகும். ( )
7. பிறர் வீட்டினுள் ஜன்னல் வழியாக எட்டிப் பார்க்கலாம். ( )
8. உலகின் முதல் மனிதன் மூஸா (அலை) ஆவார்கள். ( )
9. அபாபீல் என்பது சிறிய பறவைக் கூட்டத்தைக் குறிக்கும். ( )
10. அஸ்ஸீத்தீக்கா என்பது ஆயிஷா நாயகியைக் குறிக்கும். ( )

(10 புள்ளிகள்)

03. சரியான விடையினைத் தெரிவு செய்து இடைவெளி நிரப்புக.

(சுற்றாடல், இப்லீஸ், ஹவ்வா (அலை), முஹம்மது நபி, நோன்பு , யானை, துக்க ஆண்டு, சூரா பாத்திஹா, அலி(ரழி), களிமண்)

1. ஷவ்வம் என்பது ..... குறிக்கும்.

2. தொழுகையின் பர்ளுகளில் ஒன்று ..... ஆகும்.

3. ஆதம் நபியின் மனைவி.....ஆவார்.

www.lkedu.lk

4. மனிதன் ..... னால் படைக்கப்பட்டுள்ளான்.

5. எம்மைச் சூழவுள்ள அனைத்தும் .....எனப்படும்.

6. ஷைத்தான்களின் தலைவன் ..... எனப்படும்.

7. இறைவனால் அனுப்பப்பட்ட இறுதித் தூதர் ..... .ஆவார்.

8. முதன் முதலில் இஸ்லாத்தை ஏற்ற சிறுவன் .....

9. ஆமுல் ஹுஸ்ன் என்பது..... டைக் குறிக்கும்.

10. பீல் என்ற சொல்லின் கருத்து ..... என்பதாகும்.

(20 புள்ளிகள்)

பகுதி -II

பின்வரும் வினாக்களில் ஐந்து வினாக்களைத் தெரிவு செய்து விடை எழுதுக

01. 1. நீரின் வகைகளைத் தருக.
2. நஜீஸின் பிரிவுகளை எழுதுக.
3. சாதாரண நஜீஸிற்கு 5 உதாரணம் எழுதுக. (2+ 3+ 5 =10 புள்ளிகள்)

02. 1. நுபுவத் என்பதன் பொருள் யாது?
2. நபியவர்களுக்கு எங்கு வைத்து நுபுவத் கிடைத்தது?
3. அல்குர் ஆனின் வேறு பெயர்கள் 5 தருக? (2+ 3+ 5 =10 புள்ளிகள்)

03. 1. இஸ்லாமிய வருடங்களின் ஒன்பதாவது மாதம் எது?
2. நோன்பு மாதத்தின் சிறப்பான இரவு எது?
3. நோன்பு மாதம் செய்ய வேண்டிய நல்லமல்கள் 5 தருக. (2+ 3+ 5 =10 புள்ளிகள்)

04. 1. ஹதீஸ் என்றால் என்ன?
2. ஹதீஸ் துறையில் சிறப்புற்று விளங்கிய 3 இமாம்களைக் குறிப்பிடுக.
3. நாம் பெற்றோருக்கு செய்ய வேண்டிய கடமைகள் 5 தருக? (2+ 3+ 5 =10 புள்ளிகள்)

05. 1. நபியவர்களின் பெற்றோரின் பெயர்களைத் தருக.
2. பாத்திமா(ரழி)ன் பண்புகள் 3 இனை தருக.
3. நபியவர்களின் மனைவிமார் 5 பேரின் பெயர்களைத் தருக. (2+ 3+ 5 =10 புள்ளிகள்)

06. 1. நாஸ் என்பதன் பொருள் யாது?
2. சூரா இஹ்லாஸின் வேறு பெயர்களைத் தருக?
3. ஆப்றஹா மன்னனின் படைகள் எவை? (2+ 3+ 5 =10 புள்ளிகள்)

07 1. சஹாபா தோழர்கள் இருவரின் பெயர்களைத் தருக.
2. நாம் அயலவருக்கு செய்யும் உதவிகள் 3 தருக.
3. பிராணிகள் மூலம் கிடைக்கும் பயன்கள் 5 தருக. (2+ 3+ 5 =10 புள்ளிகள்)

www.ikedu.lk

மாகாணக் கல்வித் திணைக்களம்
வடக்கு மாகாணம்
Provincial Department of Education, Northern Province

மூன்றாம் தவணைப் பரீட்சை – 2022 – (2023)

தரம் - 06	சித்திரக்கலை– I,II	நேரம்: 2.00 மணித்தியாலங்கள்

பெயர் / சுட்டெண் .....

கவனிக்க: பகுதி I எல்லா வினாக்களுக்கும் இத்தாளில் விடை எழுதுக.

➢ ***01 - 05 வரையான வினாக்களுக்கு கீழே காட்டப்பட்டுள்ள படங்களினை இனங்கண்டு அவற்றைப் புள்ளிக்கோட்டில் எழுதுக.***

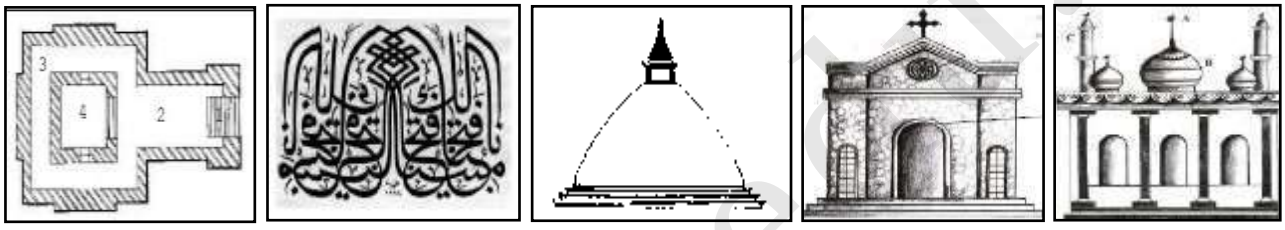

A B C D E

1. A - ..... 2. B - .....
3. C - ..... 4. D - .....
5. E -..... *(10 புள்ளிகள்)*

➢ ***6 - 10 வரையான வினாக்களுக்குப் பொருத்தமான விடையின் கீழ் கோடிடுக.***

6. மூல வர்ணங்களில் ஒன்றாக அமையும் வர்ணம் எது?
   1. சிவப்பு 2. கறுப்பு 3. பச்சை 4. ஊதா
7. வர்ணத்தின் இருண்ட, இளநிலைச்சாயல் எவ்வாறு அழைக்கப்படும்?
   1. தூரநோக்கு 2. ஒளிநிழல் 3. வர்ணபலம் 4. தூரதரிசனம்
8. கிறிஸ்தவ தேவாலயத்தின் உள்ளே நிறக்கண்ணாடித் துண்டுகளாலான ஆக்கம் எப்பெயரால் அழைக்கப்படும்?
   1. கலிக்கிறபிக் அலங்காரம் 2. மொசைக்சித்திரம்
   3. கொலாஜ் 4. கோலம்
9. இந்து ஆலயங்களில் மரச்சிற்ப வேலைப்பாடுகள் நிறைந்த அசையும் பகுதியாக அமைவது எது?
   1. கோபுரம் 2. வசந்தமண்டபம் 3. கர்ப்பக்கிரகம் 4. தேர்
10. துணை வர்ணங்களில் ஒன்றாகக் காணப்படும் வர்ணம் எது?
    1. ஊதா 2. சிவப்பு 3. மஞ்சள் 4. நீலம்

(05 புள்ளிகள்)

www.lkedu.lk

➢ ***11 - 15 வரையான வினாக்களுக்குச் சரியாயின் (✓) எனவும் பிழையாயின் (×) எனவும் அடையாளம் இடுக.***

11. புகையிரதத் தண்டவாளத்தைக் காட்டப் பயன்படுவது சமாந்தர இரேகையாகும். ( )

12. நீலம், சிவப்பு வர்ணங்களைக் கலக்கும்போது பெறப்படுவது கபிலம் ஆகும். ( )

13. இலங்கையின் முதலாவது தாதுகோபம் தூபராம ஆகும். ( )

14. குளிர்வர்ணங்கள் முன்செல்லும் தன்மையுடையன. ( )

15. இந்து ஆலயங்களில் மூலமூர்த்தி அமைந்துள்ள பகுதி கருவறை ஆகும். ( )

(05 புள்ளிகள்)

➢ ***16 - 20 வினாக்களிற்குப் பொருத்தமான விடையினை இடைவெளிகளில் எழுதுக.***

16. கிறிஸ்தவ தேவாலய அடித்தளமானது ..... வடிவத்தில் அமைக்கப்படும்.

17. தூபிகளின் உட்பகுதியில் புத்தரின் ..... வைத்துக் கட்டப்படும்.

18. றம்ழான் தினத்தன்று தானம் வழங்குதல் ..... எனப்படும்.

19. இந்து ஆலயங்களில் சிவனின் வாகனமான ..... சிலை காணப்படும்.

20. நத்தார் பண்டிகையினைக் கொண்டாடுபவர்கள் ..... இனத்தவராவார்.

(10 புள்ளிகள்)

➢ ***21 - 25 வரையான வினாக்களுக்குச் சுருக்கமான விடை தருக.***

21. தூபியானது அண்டத்தின் தன்மைக்கேற்ப எத்தனை வகைப்படும்?

.....

22. "மஸ்ஜித்" ஒன்றின் முக்கியமான பகுதியான கும்மட்ட வடிவத்தை எவ்வாறு அழைப்பர்?

.....

23. இலங்கையில் ஆரம்பத்தில் கிறிஸ்தவ தேவாலயங்கள் யாரால் அமைக்கப்பட்டன?

.....

24. நத்தார் பண்டிகை கொண்டாடப்படுவதன் நோக்கம் யாது?

.....

25. இந்து ஆலய கர்ப்பக்கிரகம் அமைக்கப் பயன்படும் இரண்டு ஊடகங்கள் தருக.

.....

(10 புள்ளிகள்)

www.lkedu.lk

பகுதி - II

கீழே தரப்பட்ட பொருட்களை இரேகை மூலம் வரைந்து ஒளிநிழல் காட்டுக.



பூ ஒன்று



பந்து

(10 புள்ளிகள்)

பகுதி – III

பின்வரும் தலைப்புகளில் ஒன்றைத் தெரிவு செய்து வரைந்து வர்ணம் தீட்டுக.

01. எமது பாடசாலையின் விளையாட்டுப் பூங்கா

02. தைப்பொங்கல் விழா

03. வாசனை மலர்களும் வண்ணத்துப் பூச்சியும்

04. நீலம், மஞ்சள், சிவப்பு நிறங்களைக் கலந்து புதிய கோலங்களை உருவாக்குவோம்.

05. பூக்களைப் பயன்படுத்தி சீத்தைத் துணிக்கான பரவுரூப சித்திரம் வரைக.

06. விளையாட்டு விழாவுக்கான அழைப்பிதழ் ஒன்றினை வரைக.

(50 புள்ளிகள்)

www.lkedu.lk

மாகாணக் கல்வித் திணைக்களம்
வடக்கு மாகாணம்
Provincial Department of Education, Northern Province

மூன்றாம் தவணைப் பரீட்சை – 2022 – (2023)

தரம் - 06	கர்நாடக சங்கீதம் – I,II	நேரம்: 2.00 மணித்தியாலங்கள்

பெயர் / சுட்டெண் .....

பகுதி-I

01. எல்லா வினாக்களுக்கும் விடை தருக.

➢ **சரியான விடையின் கீழ்க் கோடிடுக.**

01. சங்கீதத்திற்கு ஆதாரமாக உள்ள ஸ்வரங்கள்,
1) 5 2) 7 3) 2 4) 12

02. "அன்பு நிறைந்த பாட்டி" என்ற சிறுவர் பாடலின் இராகம்,
1) காபி 2) சங்கராபரணம் 3) பிலஹரி 4) தேஷ்

03. திஸ்ர நடைக்குரிய சொற்கட்டு,
1) தகதிமி 2) தகதகிட 3) தகிட 4) தகதிமி தகதகிட

04. அனுத்ருதத்தின் குறியீடு
1) ∪ 2) / 3) o 4) +

05. "இசை பயில்வோம்" என்ற சிறுவர் பாடலை இயற்றியவர்,
1) வீரமணி ஐயர் 2) பொன் ஸ்ரீ வாமதேவன்
3) பாரதியார் 4) புரந்தரதாஸர்

(5 X 2 = 10 புள்ளிகள்)

02. சரியான விடையைத் தெரிவு செய்து இடைவெளி நிரப்புக.

(மாயாமாளவ கௌளை, தம்புரா, நட்டபாடை, ஸப்த, அமரோசை)

01. சுருதிக்காகப் பயன்படுத்தப்படும் வாத்தியம் ..... ஆகும்.

02. ஏழு ஸ்வரங்களை ..... ஸ்வரங்கள் என்று அழைப்பர்.

03. அவரோகணத்தை ..... எனவும் அழைப்பர்.

04. "தோடுடைய செவியன்" எனும் தேவாரத்தின் பண் ..... ஆகும்.

05. அப்பியாச வரிசைகள் பாடப்படும் இராகம் .....ஆகும்.

(5 X 2 = 10 புள்ளிகள்)

www.lkedu.lk

03. தொடர்புபடுத்துக.

அ	ஆ
1. நாதம்	மூன்று
2. தமிழ்மொழி வாழ்த்து	பிறப்பு
3. மருத்துவிச்சி பாடல்	வைகாசி மாதம்
4. வெசாக்	சுப்பிரமணிய பாரதியார்
5. திரியாங்கம்	இரண்டு வகை

(5 X 2 = 10 புள்ளிகள்)

04. பின்வரும் கூற்றுக்கள் சரியாயின் (✓) எனவும் பிழையாயின் பிழை (×) எனவும் அடையாளமிடுக.

01. சூழலில் கேட்கப்படும் இனிமையான ஒலி இசை எனப்படும். ( )

02. சங்கீதத்திற்கு சுருதி தந்தை போன்றது. ( )

03. மாயாமாளவ கௌளை இராகத்தின் மேள எண் 15. ( )

04. ஆவர்த்தன முடிவைக் காட்டும் குறியீடு // ( )

05. திருமணச் சடங்குகளில் பாடப்படும் பாடல் நலங்குப் பாடலாகும். ( )

(5 X 2 = 10 புள்ளிகள்)

பகுதி-II

➢ **பின்வருவனவற்றுள் எவையேனும் நான்கு வினாக்களுக்கு விடை தருக.**

01. சங்கீதம் பற்றி 5 வசனங்கள் எழுதுக. (15 புள்ளிகள்)

02. மூன்றாவது ஸ்வர வரிசையை இராகம், தாளம், அங்க அடையாளங்களுடன் எழுதுக.
(15 புள்ளிகள்)

03. 1. நாதம் என்றால் என்ன?
2. நாதம் எத்தனை வகைப்படும்? அவை எவை?
3. ஆகத நாதம் என்றால் என்ன?
4. அநாகத நாதம் என்றால் என்ன? (3+3+4+5 = 15 புள்ளிகள்)

04. 1. ஸ்வரம் என்றால் என்ன?
2. ஸப்த ஸ்வரங்களையும் வடமொழிப் பெயர்களையும் தமிழ்ப் பெயர்களையும் எழுதுக.
(5+10 = 15 புள்ளிகள்)

05. நத்தார் பண்டிகை பற்றி 5 வசனங்கள் எழுதுக. (15 புள்ளிகள்)

06. 1. ஆரோகணம் என்றால் என்ன? மறுபெயர்கள் 2 தருக.
2. அவரோகணம் என்றால் என்ன? மறுபெயர்கள் 2 தருக.
(7 + 8 = 15 புள்ளிகள்)

www.lkedu.lk

மாகாணக் கல்வித் திணைக்களம்
வடக்கு மாகாணம்
Provincial Department of Education, Northern Province

மூன்றாம் தவணைப் பரீட்சை – 2022 – (2023)

தரம் - 06	பரதநாட்டியம்– I,II	நேரம்: 2.00 மணித்தியாலங்கள்

பெயர் / சுட்டெண் .....

பகுதி-I

- **எல்லா வினாக்களுக்கும் விடை தருக.**
- **பொருத்தமான விடையின் கீழ்க் கீறிடுக.**

01. முருகனை வேண்டி ஆடப்படும் கிராமிய நடனம்,
1) கும்மி 2) கோலாட்டம்
3) கரகம் 4) காவடி

02. ஸம்யுத ஹஸ்தங்களின் எண்ணிக்கை?
1) 22 2) 24
3) 26 4) 28

03. நாட்டடவு அமைந்துள்ள தாளம்,
1) ஆதி 2) ரூபகம்
3) ஜம்பை 4) மட்டியம்

04. நால்வேதங்களின் தொகுப்பு,
1) கண்டிய நடனம் 2) மணிப்புரி
3) பரதம் 4) கதகளி

05. "முளைப்பாரியின்" போது பயன்படுத்தப்படும் வாத்தியம்?
1) நாதஸ்வரம் 2) உறுமி மேளம்
3) மிருதங்கம் 4) தபேலா

60. மகிழ்ச்சியின்பொருட்டு ஆடப்படும் கிராமிய நடனங்களில் ஒன்று?
1) கரகம் 2) காவடி
3) கும்மி 4) கொழுந்து நடனம்

07. தியானஸ்லோகத்தில் தாராதி குறிப்பது,
1) உலகம் 2) உடம்பு
3) சந்திரன் 4) நட்சத்திரம்

08. நவராத்திரிவிழா கொண்டாடப்படும் மாதம்
1) புரட்டாதி 2) தை
3) பங்குனி 4) மார்கழி

09. கோயில் நடனமாதர் எனப்படுவோர்,
1) அறிஞர் 2) தேவதாசிகள்
3) தோழிகள் 4) கலைஞர்

10. உள்ளத்தில் தோன்றும் உணர்வுகளை முகத்தினால் வெளிப்படுத்துவது
1) பாவம் 2) இராகம்
3) தாளம் 4) அபிநயம் (10x 1 = 10 புள்ளிகள்)

www.lkedu.lk

02. **சரியாயின் (✓) எனவும் பிழையாயின் (✗) எனவும் அடையாளமிடுக.**

1. பரதத்தின் முழுமுதற்கடவுள் நடராஜப்பெருமான் ஆவார். ( )
2. எசலபெரகரா மார்கழி மாதத்தில் கொண்டாடப்படும் ( )
3. நால்வகை வேதங்களுள் அதர்வணமும் ஒன்றாகும். ( )
4. கால்களை நாட்டிச் செய்வது தட்டடவு எனப்படும். ( )
5. சூரியப்பிறை வலது பக்கமும் சந்திரப்பிறை இடது பக்கமும் அணிதல் வேண்டும். ( )

(5x2= 10 புள்ளிகள்)

03. **தொடர்புபடுத்துக.**

1)	நாட்டடவு	கற்கடகம்
2)	நேர்த்திக்கடன்	அபூர்வகஸ்தம்
3)	பிரலம்பம்	திரிபதாகம்
4)	தண்டியம்	காவடி
5)	நண்டு	கோல்

(5x 2 = 10 புள்ளிகள்)

04. **கீறிட்ட இடங்களில் மிகப்பொருத்தமான சொல்லை வைத்து இடைவெளியை நிரப்புக.**

(எசலபெரகரா, சிலம்பக்கூடம், தகிட , பஞ்சகச்சம் , குருஸ்லோகம்)

1) குருர் ப்ரம்மா குருவிஷ்ணு'' என்று ஆரம்பிக்கப்படுவது ..... ஆகும்.
2) நாட்டியம் கற்றுக்கொடுக்கும் அறை ..... எனப்படும்.
3) பரதநாட்டியத்திற்குப் பயன்படுத்தப்படும் ஆடை ..... எனப்படும்.
4) சிங்கள மக்களின் பாரம்பரிய விழாக்களில் ..... ஒன்றாகும்.
5) திஸ்ர நடையின் சொற்கட்டு ..... ஆகும். (5x 2 = 10 புள்ளிகள்)

www.lkedu.lk

பகுதி-II

➢ **எல்லா வினாக்களிற்கும் விடை எழுதுக.**

01. 1. இரட்டைக்கை முத்திரை என்பதன் மறுபெயர் யாது?

2. இரட்டைக்கை முத்திரைகள் எத்தனை?

3. அர்த்தச்சந்திரன் முத்திரை பிடித்துச் செய்யப்படும் இரட்டைக்கை முத்திரை யாது?

4. இரட்டைக்கை முத்திரைகளில் முதல் பத்தினை வரிக்கிரமாகக் கருத்துடன் எழுதுக.

(2+1+2+10 = 15 புள்ளிகள்)

02. 1) பின்வரும் மாதங்களிற்குரிய நிகழ்வுகளை எழுதுக.

1. தை
2. பங்குனி
3 ஆவணி
4. வைகாசி
5. மார்கழி (05 புள்ளிகள்)

2) பரதம் பற்றி 05 வாக்கியங்களை எழுதுக. (10 புள்ளிகள்)

03. 1. பரத இலட்சணங்கள் எத்தனை?

2. பரத இலட்சணங்களை எழுதுக.

3. அவை ஒவ்வொன்றைப் பற்றியும் எழுதுக. (2+3+10 = 15 புள்ளிகள்)

04. 1. கிராமிய நடனம் என்றால் என்ன?

2. கிராமிய நடனங்கள் எவை?

3. சந்தோசத்தின் நிமித்தம் ஆடப்படும் கிராமிய நடனங்கள் 02 தருக.

4. மேற்கூறிய நடனங்களில் ஒன்றினைப்பற்றி 05 வாக்கியங்கள் எழுதுக. (1+2+2+10 = 15 புள்ளிகள்)

www.lkedu.lk

மாகாணக் கல்வித் திணைக்களம்
வடக்கு மாகாணம்
Provincial Department of Education, Northern Province

மூன்றாம் தவணைப் பரீட்சை – 2022 – (2023)

தரம் - 06	நாடகமும் அரங்கியலும்– I,II	நேரம்: 2.00 மணித்தியாலங்கள்

பெயர் / சுட்டெண் .....

பகுதி-I

➢ **சரியான விடையின் கீழ்க் கோடிடுக.**

01. போலச்செய்தலின் அடியாகத் தோற்றம் பெற்றது,
1. நாடகம் 2. சிற்பம்
3. ஓவியம் 4. பரதம்

02. முன்னாயத்தம் இன்றி உடனடியாகச் சித்திரிப்பது,
1. ஊமம் 2. புதிதளித்தல்
3.கரகாட்டம் 4. கூத்து

03. நாட்டார் அரங்க விளையாட்டாக அமைவது,
1. உதைபந்தாட்டம் 2. பசுவும் புலியும்
3. பஸ் 4. மேசைப் பந்து

04. கதையொன்றில் காணப்படும் முக்கியம்சம் எது?
1. பாடல் 2. ஆடல்
3. மேடைக் குறிப்பு 4. கரு

05. கோயில் பூசகர் ஒருவரின் வேட உடையாக அமைவது,
1. சாரம் 2. கோட் சூட்
3. வேட்டி, சால்வை 4. காற்சட்டை

(5X2=10 புள்ளிகள்)

➢ **பொருத்தமான சொல்லை வைத்து இடைவெளி நிரப்புக.**
(நடிகன், காவடி, ஊமம், நாடகாசிரியர், கோழிகோட்டான்)

06. வாய் மொழியற்ற நடிபாகத்தை சித்திரிப்பது ..... ஆகும்.

07. அரங்கின் பிரதான மூலகம் ..... ஆவான்.

08. நாடகத்தை எழுதுபவர் ..... என அழைக்கப்படுவார்.

09. பாரம்பரிய நடன வடிவம் ..... ஆகும்.

10. அரங்க விளையாட்டுக்களில் .....ஒன்றாகும். (5X2=10 புள்ளிகள்)

www.lkedu.lk

➢ **சரியாயின் (✓) எனவும் பிழையாயின் (✗) பிழை எனவும் இடுக.**

01. நாடகத்தில் நடிகன் முக்கியமானவன் ஆவான். ( )

02. "பிள்ளை அழுத கண்ணீர்" ஓர் சிறுவர் நாடகம் ஆகும். ( )

03. நாடகத்திற்கு ஒப்பனை அவசியம் இல்லை. ( )

04. "ஆடும் வீடும்" ஓர் அரங்க விளையாட்டாகும். ( )

05. சூரன் போர் நிகழ்த்தப்படுவது மேடையில் ஆகும். ( )

(5X2=10 புள்ளிகள்)

➢ **தொடர்புபடுத்துக.**

1.	கலாநிதி.சி.ஜெயசங்கர்	தோற் கருவி
2.	கிராமிய விளையாட்டு	பஞ்சவர்ண நரியார்
3.	சிறுவர் நாடகம்	அரங்கக் கைப்பொருள்
4.	மிருதங்கம்	சிறுவர் நாடகாசிரியர்
5.	வாள்	கிட்டிப்புல்லு

(5X2=10 புள்ளிகள்)

www.lkedu.lk

பகுதி-II

➢ **பின்வரும் வினாத் தொகுதிகளில் 5 வினாக்களுக்கு விடை தருக.**

01. நீர் வகுப்பறையில் கற்ற சிறுவர் நாடகப் பாடல் அல்லது மரபுவழி நாடகப் பாடல் ஒன்று எழுதுக.
(12 புள்ளிகள்)

02. 1. கதைகளின் வகைகள் 3 தருக.
2. நீர் வாசித்த கதைகளின் தலைப்புக்கள் 3 தருக.
3. கதைகளை நாம் வாசிப்பதால் நாம் கற்றுக்கொள்ளும் விடயங்கள் 4 தருக.

(3+3+6=12 புள்ளிகள்)

03. 1. அரங்க விளையாட்டு என்றால் என்ன?
2. உமக்குத் தெரிந்த அரங்க விளையாட்டுக்கள் 5 தருக.
3. அவ் விளையாட்டுக்களில் ஒன்று விளையாடும் முறையை விபரிக்குக.

(2+5+5=12 புள்ளிகள்)

04. 1. வேடமுகம் ஒன்று செய்யத் தேவையான பொருட்கள் 4 தருக.
2. வேடமுகம் செய்யும் படிநிலையைத் தருக.
3. வேடமுகம் ஒன்றின் பருமட்டான படம் வரைக.

(4+4+4=12 புள்ளிகள்)

5) 1. "பிள்ளை அழுத கண்ணீர்" என்ற நாடகத்தின் கரு யாது?
2. "பிள்ளை அழுத கண்ணீர்" நாடகத்தில் வரும் பாத்திரங்கள் 4 தருக.
3. இந் நாடகத்தை கற்பதால் நாம் அறிந்துகொள்ளும் படிப்பினைகள் 3 தருக.

(2+4+6=12 புள்ளிகள்)

6) 1. நாட்டுப்புறக் கலை வடிவங்களாகக் கொள்ளப்படுபவை எவை?
2. கிராமிய நடன வடிவங்கள் 3 தருக.
3. 'கும்மி' ஆடப்படும் முறையைத் தருக.

(3+3+6=12 புள்ளிகள்)

www.lkedu.lk

மாகாணக் கல்வித் திணைக்களம்
வடக்கு மாகாணம்
Provincial Department of Education, Northern Province

மூன்றாம் தவணைப் பரீட்சை – 2022 – (2023)

தரம் - 06	சுகாதாரமும் உடற்கல்வியும் – I,II	நேரம்: 2.00 மணித்தியாலங்கள்

பெயர் / சுட்டெண் .....

பகுதி-I

01. சரியான விடையின் கீழ் கோடிடுக.

01. ஆரோக்கிய வாழ்வு என்பது யாது?
1.உடல், உள நலம் 2. சமூக, ஆன்மீக நலம்
3.உடல், ஆன்மீக நலம் 4. ஊடல், உள, சமூக, ஆன்மிக நலம்

02. நாம் உயிர் வாழ்வதற்கு இன்றியமையாதது,
1. உணவு, வளி 2 உடை, நீர் 3. வீடு வளி 4. உணவு பாதுகாப்பு

03. தேசியக்கொடி ஏற்றும்போது நிற்க வேண்டிய நிலை
1.இலகுவாய் 2.சௌகரியமாய் 3. நிமிர்ந்து 4. யாவும் சரி

04. வட்டத்தில் இரு வீரர்கள் நின்று கைகளை பயன்படுத்தி எதிராளியை எல்லைக்கு வெளியே தள்ளும் சிறு விளையாட்டு.
1.கட்டம் பாய்தல் 2.நஞ்சு மிதித்தல் 3.அரசன் யார் 4. மரம் இடம் மாறல்

05. சரியான நடத்தலின் மூலம் கிடைக்கும் நன்மையல்லாதது,
1. உடல் ரீதியான விபத்து 2. வினைத்திறனான வாழ்வு
3. சிறந்த உடல் தோற்றம் 4. சுகாதார விருத்தி

06. விளையாட்டு விதிமுறைகளை மீறும்போது ஏற்படும் சிரமங்களில் ஒன்று
1. தலைமைத்துவ விருத்தி 2. பொறுமை பேணல்
3. குழு ஒற்றுமை 4. போட்டியில் இருந்து விலக்கப்படல்

07. உணவின் அவசியம்,
1. சக்தியை பெற 2. உடல் வளர்ச்சி
3. நோய்களில் இருந்து பாதுகாக்க 4. யாவும் சரி

08. வளரும் பிள்ளைகள் குறைந்த பட்சம் விளையாட வேண்டிய நேரம்,
1.30-60 நிமிடம் 2.60-70 நிமிடம் 3.60-90 நிமிடம் 4. 90-120 நிமிடம்

09. தடையொன்றுக்கு எதிராக யாதேனும் ஒரு காரியத்தை செய்யும் திறன்,
1.வேகம் 2.தாங்கு திறன் 3.பலம் 4. ஒத்திசைவு

10. தடுப்பூசி மூலம் தவிர்க்கப்படக் கூடிய நோய்,
1. சின்னமுத்து 2. நீரிழிவு 3. டெங்கு 4. எயிட்ஸ்

(2x10=20 புள்ளிகள்)

www.lkedu.lk

02. இடை வெளி நிரப்புக.

(வொலிவொல், நீரிழிவு, குதி, புலனங்கங்கள், வலைப்பந்தாட்டம்)

1. ..... ஒழுங்கமைக்கப்பட்ட விளையாட்டாகும்.
2. கண் காது மூக்கு தோல் .....எனப்படும்.
3. ஜெனிகிரீனால் அறிமுகப்படுத்தப்பட்ட விளையாட்டு..... ஆகும்.
4. தொற்றா நோய்களில் ஒன்றாகக் கருதப்படுவது..... ஆகும்.
5. நாம் நடக்கும்போது முதலில் நிலம்படும் பகுதி ..... ஆகும்

(2x5=10 புள்ளிகள்)

(03) சரியாயின் சரி (✓) எனவும் பிழையாயின் (×) எனவும் அடையாளமிடுக.

1. ஓய்வாக இருப்பதால் தேய்வடைந்த எலும்புகள் மீளப் புதுப்பிக்கப்படமாட்டது ( )
2. ஓடும் போது இருகால்களும் ஒரே சந்தர்ப்பத்தில் தரைக்கு இருப்பதனைக் காண முடியும். ( )
3. இரும்புச்சத்து குறைபாடு காரணமாக மாலைக்கண் நோய் ஏற்படும் ( )
4. போதுமான ஒளியுள்ள இடங்களில் நாம் புத்தகங்களை வாசிக்க வேண்டும் ( )
5. அதிகளவு உப்பு, சீனி மற்றும் அதிகமாக உள்ள உணவுகளை உட்கொள்வதால் தொற்றாத நோய்கள் ஏற்படும் ( )

(2x5=10 புள்ளிகள்)

பகுதி -II

➢ **முதலாம் வினா உட்பட ஏனைய நான்கு வினாக்களுக்கு விடை தருக.**

01. அன்றாட வாழ்வில் நாம் எதிர்நோக்கும் பல்வேறு சவால்களை வெற்றிகரமாக எதிர்கொள்வோம்.
1. நோய்களின் பிரதான வகைகளை தருக.
2. தொற்று நோய்கள் 2 தருக.
3. நோய்களால் ஏற்படக்கூடிய அசௌகரியங்கள் 2 தருக.
4. விபத்து இடம் பெறும் இடங்கள் 2 தருக.
5. மா ஊட்டப் பிரச்சனைகள் எவை?
6. நுண் ஊட்டக்குறைபாட்டு நோய்கள் 2 தருக.
7. பற்களைப் பாதுகாப்பதற்கு நாம் கடைப்பிடிக்க வேண்டிய பழக்க வழக்கங்கள் 2 தருக.
8. பாரம்பரிய உணவு வளங்கள் 2 தருக?
9. வளரும் பருவத்தில் உள்ள பிள்ளைகள் நாளாந்தம் அருந்தும் நீரின் அளவு யாது?
10. நோய்களில் இருந்து பாதுகாக்கும் வழிகள் 2 தருக.

(10x2=20 புள்ளிகள்)

02. உடல், உள, சமூகத் தகமைகளைச் சிறப்பாகப் பேணும் நிலையில் எமக்குப் பல நன்மைகள் கிடைக்கின்றன.

1. உடற்தகைமைப் பண்புகள் எவை?
2. வேகம் என்றால் என்ன? உதாரணம் தருக.
3. மனவெழுச்சிச் சமநிலையில் செல்வாக்கு செலுத்தும் காரணிகள் 3 தருக.
4. மனவெழுச்சி சமநிலையைப் பேணுவதன் முக்கியத்துவங்கள் 3 தருக.

(2+2+3+3=10 புள்ளிகள்)

www.lkedu.lk

03. நாம் அன்றாட வாழ்வில் பலவிதமான சவால்களை எதிர்கொள்கின்றோம்.

1. தொற்றா நோய்கள் என்றால் என்ன? உதாரணம் தருக.
2. அன்றாட வாழ்வில் எதிர்கொள்ளும் ஏனைய சவால்கள் 3 தருக.
3. டெங்கு நோய் தொற்றுவதை தவிர்க்கும் ஏனைய சவால்கள் 3 தருக.
4. வீதி விபத்துக்கள் தடுப்பதற்கான வழிமுறைகள் 3 தருக.

(2+2+3+3=10 புள்ளிகள்)

04 விளையாட்டுக்களை சிறு விளையாட்டுக்கள் உப விளையாட்டுக்கள் ஒழுங்கமைக்கப்பட்ட விளையாட்டுக்கள் என 3 பிரிவுகளாக பிரிக்கலாம்.

1. சிறு விளையாட்டுக்களுக்கு 2 உதாரணம் தருக.
2. சிறு விளையாட்டுக்களின் இயல்புகள் 2 தருக.
3. ஒழுங்கமைக்கப்பட்ட விளையாட்டுக்களின் இயல்புகள் 3 தருக.
4. வொலிவோல், வலைப்பந்தாட்டம் காற்பந்தாட்டம் ஆகிய மைதானங்களின் நீள அகலங்கள் முறையே தருக.

(2+2+3+3=10 புள்ளிகள்)

05 ஆரோக்கியமான வாழ்விற்கான உளச்சுகாதாரத்தைப் பேணுவோம்.

1. உளச்சுகாதாரம் என்றால் என்ன?
2. ஆக்கச்செயற்பாடுகள் நான்கினைக் குறிப்பிடுக.
3. மன அழுத்தத்தை குறைக்க நாம் செய்ய வேண்டிய விடயங்கள் 3 தருக.
4. உள நலனுடைய ஒருவரில் காணப்படும் சிறப்பம்சங்கள் 3 தருக.

(2+2+3+3=10 புள்ளிகள்)

06. ஆரோக்கியமான உணவின் மூலம் சிறந்த ஆரோக்கியத்தைப் பெறுவோம்

1. போசனை மட்டம் என்றால் என்ன?
2. நுண் போசனைக் கூறுகள் 2 குறிப்பிடுக.
3. ஆரோக்கியமான இடை உணவுகள் 3 குறிப்பிடுக.
4. குறையூட்டம் காரணமாக ஏற்படக்கூடிய பிரச்சினைகள 3 தருக.

(2+2+3+3=10 புள்ளிகள்)

www.lkedu.lk